MULTIPLICAÇÃO

1- Observe dentro de cada seta e faça um x na resposta que completa a operação de cada um dos amigos.

a) Selena tem 4 vasos. Colocou 3 rosas em cada um. Quantas rosas Selena tem?

_____ vasos X ____ rosas = _____ rosas

A

( ) 14 x 3 = 42
( ) 4 x 3 = 12
( ) 12 x 4 = 48

b) Flávia tem 5 vasos. Colocou 3 rosas em cada um. Quantas rosas Flávia tem?

_____ vasos X ____ rosas = _____ rosas

B

( ) 5 x 3 = 15
( ) 6 x 3 = 18
( ) 12 x 3 = 36

LIVEWORKSHEETS

c) André tem 2 vasos. Colocou 3 rosas em cada um. Quantas rosas André tem?

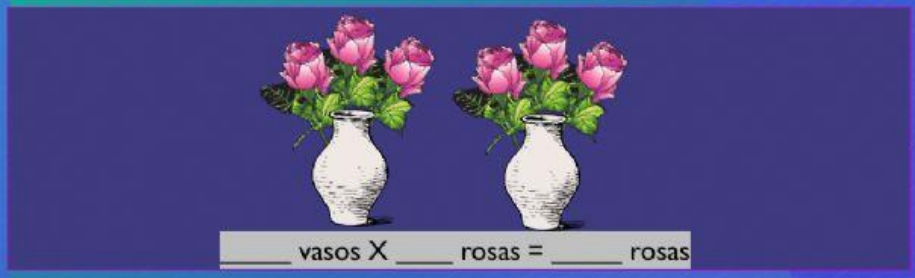

_____ vasos X ____ rosas = _____ rosas

C

( ) 3 x 3 = 9
( ) 6 x 3 = 18
( ) 2 x 3 = 6

d) Laura tem 6 vasos. Colocou 3 rosas em cada um. Quantas rosas Laura tem?

_____ vasos X ____ rosas = _____ rosas

D

( ) 4 x 3 = 12
( ) 6 x 3 = 18
( ) 11 x 3 = 33

LIVEWORKSHEETS

e) Renata tem 7 vasos. Colocou 3 rosas em cada um. Quantas rosas Renata tem?

E

( ) 3 x 3 = 9
( ) 5 x 3 = 15
( ) 7 x 3 = 21

f) Miguel tem 8 vasos. Colocou 3 rosas em cada um. Quantas rosas Miguel tem?



F

( ) 5 x 3 = 15
( ) 8 x 3 = 24
( ) 12 x 3 = 36

LIVEWORKSHEETS

g) Cindy tem 5 vasos. Colocou 8 rosas em cada um. Quantas rosas Cindy tem?

_____ vasos X ____ rosas = _____ rosas

G

( ) 5 x 8 = 40
( ) 6 x 8 = 48
( ) 2 x 8 = 16

h) Leonel tem 3 vasos. Colocou 8 rosas em cada um. Quantas rosas Leonel tem?



_____ vasos X ____ rosas = _____ rosas

H

( ) 7 x 8 = 56
( ) 6 x 8 = 48
( ) 3 x 8 = 24

LIVEWORKSHEETS

i) Vivi tem 4 vasos. Colocou 8 rosas em cada um. Quantas rosas Vivi tem?

_____ vasos X ____ rosas = _____ rosas

I

( ) 5 x 8 = 40
( ) 4 x 8 = 32
( ) 8 x 8 = 64

j) Juliana tem 2 vasos. Colocou 8 rosas em cada um. Quantas rosas Juliana tem?

_____ vasos X ____ rosas = _____ rosas

J

( ) 5 x 8 = 40
( ) 6 x 8 = 48
( ) 2 x 8 = 16

LIVEWORKSHEETS

2) Arraste os nomes para completar as informações:

a) _____ colocou a maior quantidade de rosas no total.

b) _____ possui a maior quantidade de vasos.

c) Se _____ tivesse mais três vasos com a mesma quantidade de rosas, teria 30 rosas.

d) Se _____ tivesse 1 vaso a menos, teria 24 rosas.

e) _____ colocou a menor quantidade de rosas no total.

f) _____ precisaria ter mais 3 vasos com a mesma quantidade de rosas para empatar com Cindy.

g) Se _____ tivesse 2 vasos a menos, empataria com Selena.

Selena

Cindy

Flávia

Leonel

André

Vivi

Laura

Juliana

Renata

Miguel

LIVEWORKSHEETS