Problemas de division

Un deposito contiene 30 litro de agua. Si se reparte toda el agua en recipienes de 5 litros cada uno. ¿Cuántos recipientes se llenaran de agua?

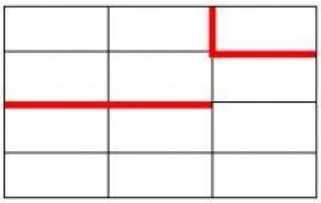

En una tienda de conservas tienen 968 melocotones que los trabajadores van metiendo en botes de 4 melocotones cada uno. ¿Cuánto botes pueden llenar?

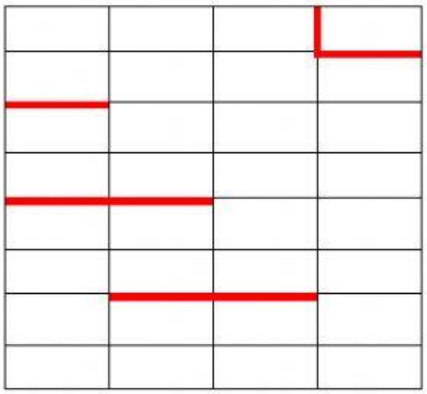

Si compro 194 canicas y lo reparto entre Ana y Beto. ¿Cuántas canicas le toca a cada uno?

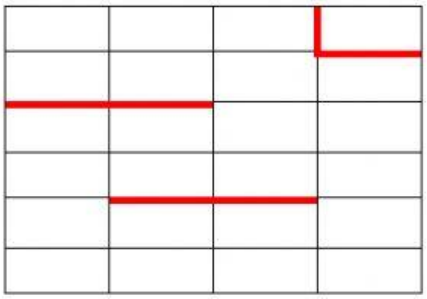

LIVEWORKSHEETS