โรงเรียน เอกบูรพา วิเทศศึกษา

กลุ่มสาระการเรียนรู้ คณิตศาสตร์ วิชาคณิตศาสตร์ เรื่อง **เส้นขนาน**

ชื่อ..... นามสกุล..... ชั้น G. 5 /……. เลขที่.....

1. จงเลือกตัวเลือกที่เป็นคำตอบที่ถูกต้อง (1) (2) (3) หรือ (4) (ข้อละ 1 คะแนน)

1) ข้อใดเป็นสัญลักษณ์แสดงการตั้งฉาก

(1)

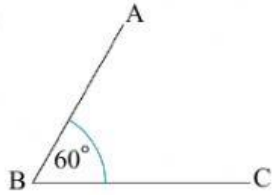

(2)

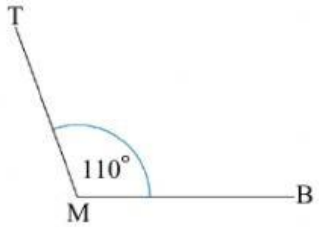

(3)



(4)

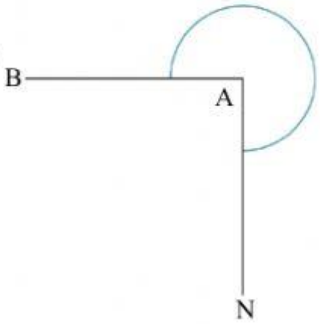

2) เส้นตรงคู่ใดไม่มีโอกาสตัดกัน

(1)

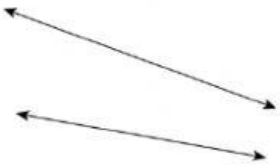

(2)

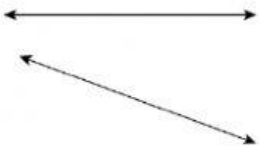

(3)

(4)



LIVEWORKSHEETS

3) ข้อใดแสดงระยะห่างระหว่างเส้นตรงสองเส้นที่ถูกต้อง

1

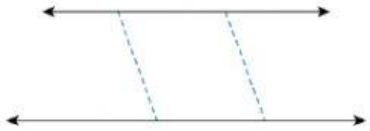

2

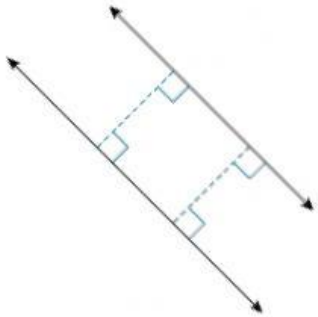

3

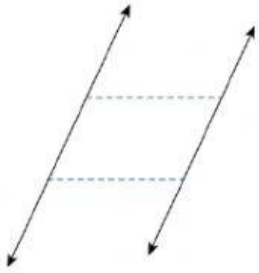

4

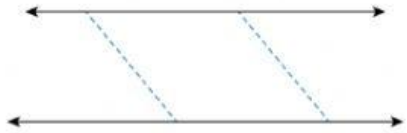

4) ส่วนของเส้นตรงคู่ใดขนานกัน

1

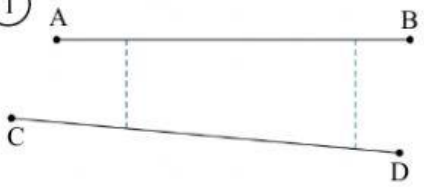

2

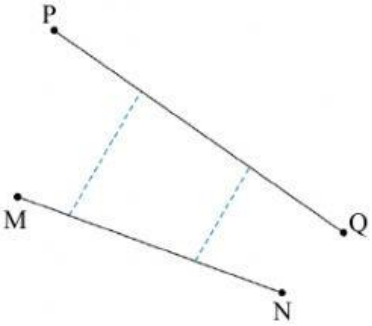

3

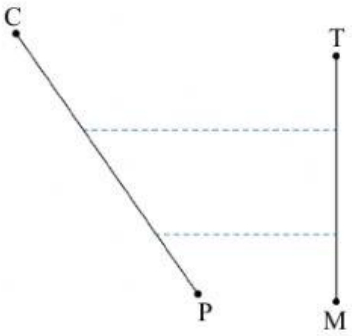

4



LIVEWORKSHEETS

5) ส่วนของเส้นตรงข้อใดขนานกัน 2 คู่

1

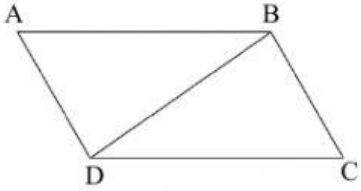

2

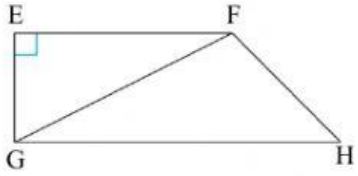

3

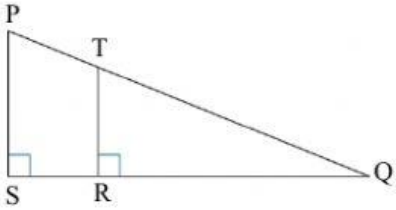

4

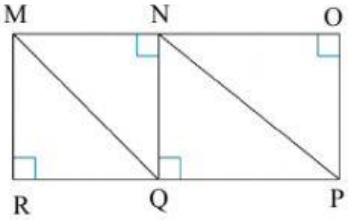

2. จากรูปที่กำหนด เติมคำตอบลงในช่องว่าง (ข้อละ 1 คะแนน)

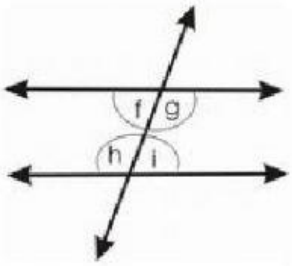

1) ชื่อของมุมที่เป็นมุมแย้งของ f คือ ……..

2) ชื่อของมุมภายในที่อยู่บนข้างเดียวกันของเส้นตัดขวาง กับ h คือ ……..

3) ชื่อของมุมภายในที่อยู่บนข้างเดียวกันของเส้นตัดขวาง กับ i คือ ……..

4)

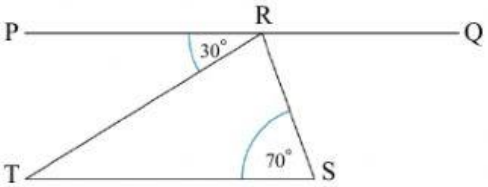

จากรูปที่กำหนด $\overline{PQ}$ // $\overline{TS}$

$T\hat{R}S$ มีขนาด _____ องศา

5)

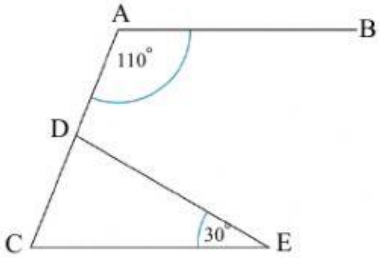

จากรูปที่กำหนด $\overline{AB}$ // $\overline{CE}$

$A\hat{C}E$ มีขนาด _____องศา

LIVEWORKSHEETS