MATEMÁTICA

Visita a una reserva natural

¡Bienvenidos a la reserva nacional Pacaya-Samiria!

Aquí encontrarán:

Mamíferos: 132 especies
Anfibios: 58 especies
Aves: 330 especies
Reptiles: 69 especies
Peces: 259 especies
Árboles: 880 especies

1 Escribe los números del cartel según corresponda.

1C 3D 2U	5D 8U	3C 3D	6D 9U	2C 5D 9U	8C 8D

2 Copia en los recuadros los números obtenidos de la actividad anterior. Guíate del color de los bordes. Luego, resuelve las operaciones.

☐ + ☐

C	D	U	
			+

☐ + ☐

C	D	U	
			+

☐ - ☐

C	D	U	
			-

LIVEWORKSHEETS

MATEMÁTICA

3 Elige un número de dos dígitos de la actividad 1 y escríbelo en el primer recuadro Luego, fíjate en el patrón y continúa la secuencia.

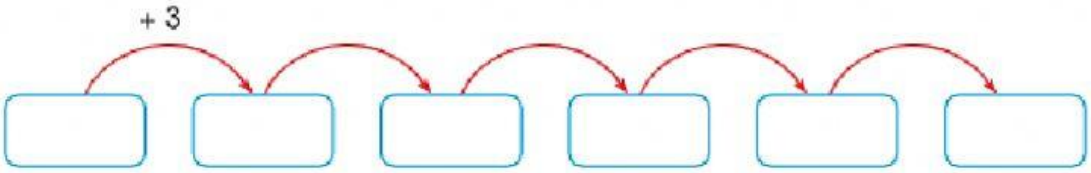

4 Observa y completa las medidas de la mesa y la alfombra.



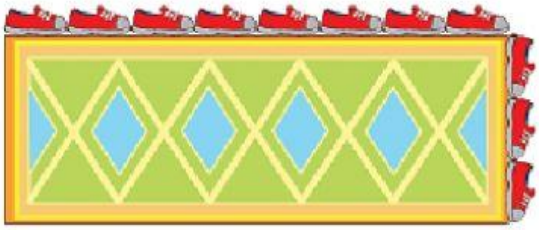

Alto ▶ ☐ cuartas

Largo ▶ ☐ cuartas

Ancho ▶ ☐ pies

Largo ▶ ☐ pies

5 Pinta las bolas del color que corresponda para que se cumplan las afirmaciones siguientes:

- Coger una bola verde es posible.

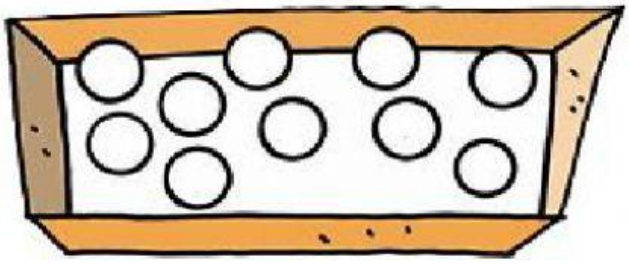

- Coger una bola roja es imposible.

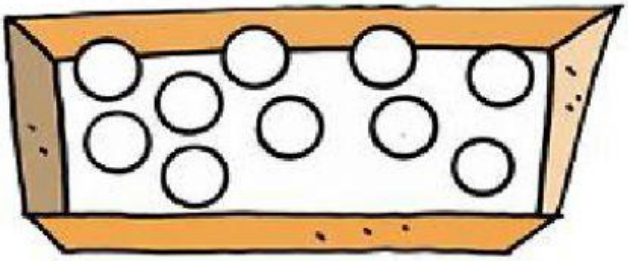



LIVEWORKSHEETS