# LATIHAN PECAHAN SENILAI

**Nama :**

1. Bagian yang diarsir pada gambar berikut bernilai ....

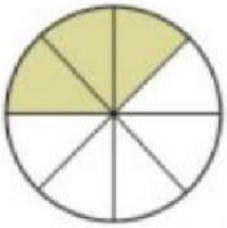

- ◯ 2/4
- ◯ 2/6
- ◯ 3/5
- ◯ 3/8

2. Gambar berikut yang menunjukkan bentuk pecahan bernilai $\frac{1}{2}$ adalah .... (Dapat memilih lebih dari 1 jawaban)

Gambar 1

Gambar 2



Gambar 3

Gambar 4

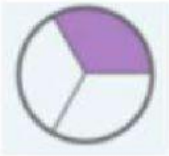

Gambar 5

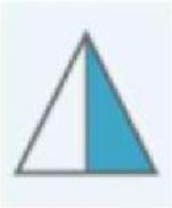

Gambar 6



Gambar 7

3. Berikut ini yang bukan pecahan yang senilai dengan $\frac{2}{3}$ adalah .....

- ◯ 6/9
- ◯ 4/6
- ◯ 9/14
- ◯ 8/12

4. Nilai dari pecahan berikut ini adalah ....

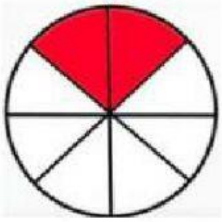

- ◯ 1/8
- ◯ 2/6
- ◯ 1/4
- ◯ 2/10

5. Bentuk pecahan yang senilai dengan gambar berikut ini adalah .....

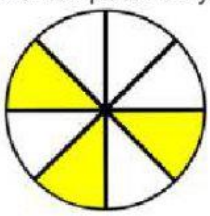

- ◯ 1/3
- ◯ 3/6
- ◯ 6/10
- ◯ 9/24

LIVEWORKSHEETS