UNIDAD EDUCATIVA NUEVE DE OCTUBRE
PROYECTO FAPT

ASIGNATURA: MATEMÁTICA DOCENTE: LCDO. FREDDY PALMA CURSO: 2°BGU

ESTUDIANTE: _____

1. Completa la siguiente tabla de crecimiento exponencial.

$2 \cdot 3^x$	
x	y
0	
2	
5	

2. Seleccione la gráfica que representa un crecimiento exponencial. Colocando una "x" en la respuesta correcta.

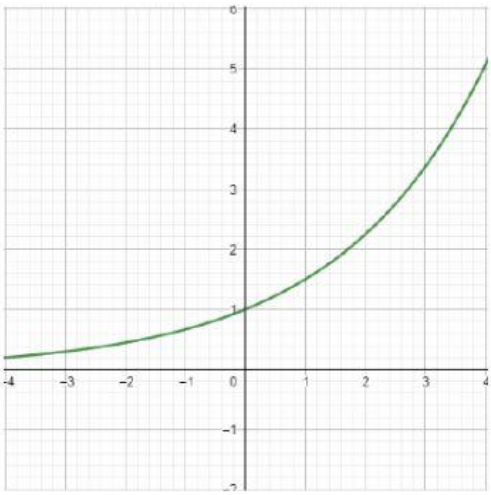

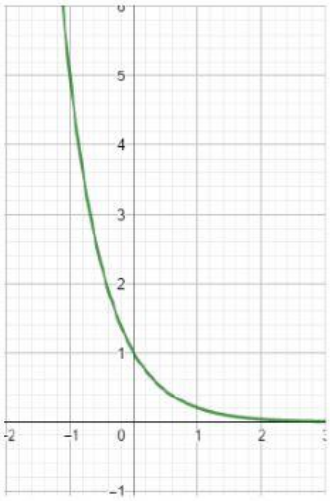

3. Complete el cuadro de acuerdo con los valores del gráfico.

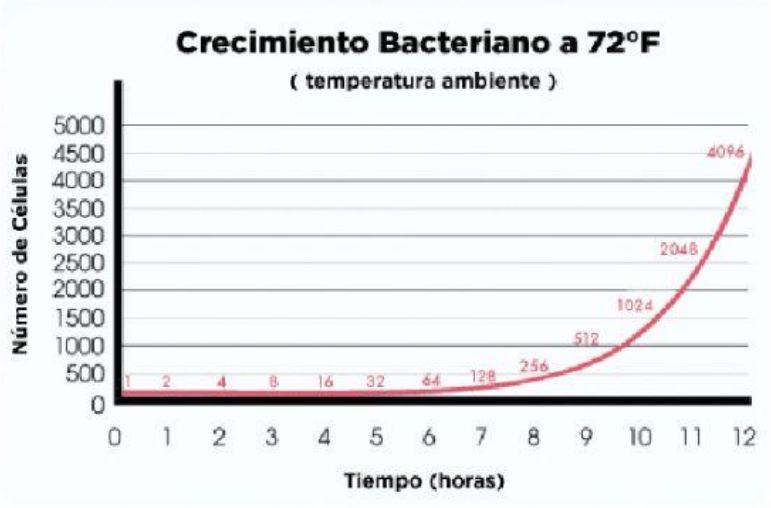

Tiempo (horas)	1	2	3	4	5	6	7	8	9	10
Número de células										

LIVEWORKSHEETS