ACTIVIDAD

Marca con una x la respuesta correcta

1. **¿Qué es el perímetro?**

   ( ). Es el espacio que ocupa un objeto
   ( ). Es la resta de todos los lados de una figura
   ( ). Es la suma de todos los lados de una figura
   ( ). Es la capacidad que tiene un objeto

2. **Un campo de futbol tiene 110 metros de largo y 75 metros de ancho ¿Cuánto mide su perímetro?**

   ( ) 370 *m*
   ( ) 220 *m*
   ( ) 260 *m*
   ( ) 370 m^2

3. **Un triángulo equilátero tiene 15 cm de perímetro ¿cuánto mide cada lado?**

   ( ) 5 *cm*
   ( ) 10 *cm*
   ( ) 15 *cm*
   ( ) 5 cm^2

4. **Julieta corrió 2 vueltas alrededor del parque que tiene forma de un cuadrado cuyo lado mide 15 metros. ¿cuántos metros corrió en total?**

   ( ) 120 *m*
   ( ) 100 *m*
   ( ) 110 *m*

LIVEWORKSHEETS

( ) 120 m^2

5. **Si un cuadrado la longitud de uno de sus lados es 6 cm ¿cuál es su perímetro?**



( ) 30
( ) 26
( ) 20
( ) 24

6. **¿cuál es el perímetro de la figura dada?**

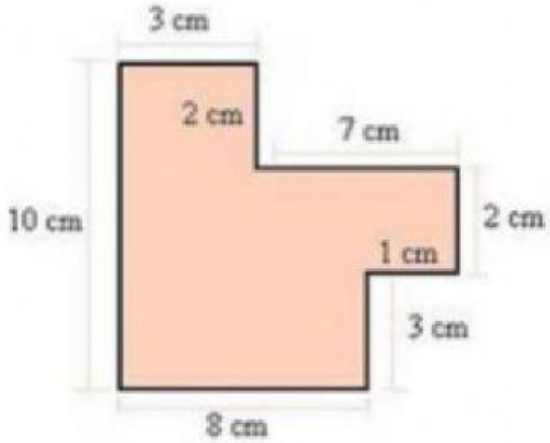

( ) 34
( ) 33
( ) 36
( ) 38

LIVEWORKSHEETS

7. **Si el perímetro de un cuadrado es 36 cm ¿cuál es la longitud de uno de sus lados?**

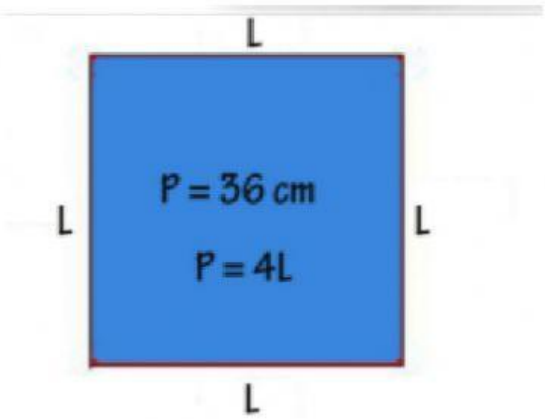

( ) 9
( ) 3
( ) 5
( ) 11

Autores:

David Olarte

José David Álvarez

Maideth Martínez

Isabel Dávila

LIVEWORKSHEETS