VICERRECTORÍA ACADÉMICA

UNIVERSIDAD PEDAGÓGICA NACIONAL
FRANCISCO MORAZÁN.
COORDINACIÓN GENERAL DE PRÁCTICA PROFESIONAL.
Tegucigalpa, M.D.C., Honduras C.A.

Actividad #2:

Ficha interactiva virtual sobre las fases de la mitosis y meiosis.

Décimo Grado.

Campo de conocimiento: Biología I

Unidad III: Reproducción

Tema: Fases de la mitosis y meiosis.

Nombre del estudiante: _____ **Valor: 5%**

Instrucciones:

A continuación, se le presenta una serie de preguntas con sus respectivas imágenes, en cada espacio deberá escribir las respuestas que usted considere correspondiente. **Éxitos**

1: Según las siguientes imágenes ¿A qué fase de la mitosis corresponden?

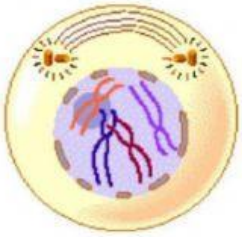

_____

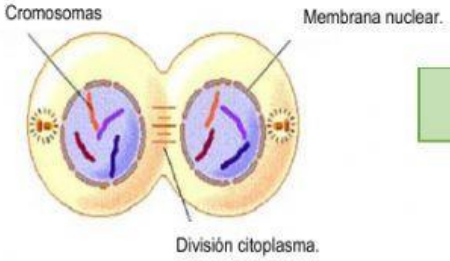

_____

Elaborado por: Yolani Maribey Moncada Varela. **UPNFM Práctica Profesional I**

LIVEWORKSHEETS

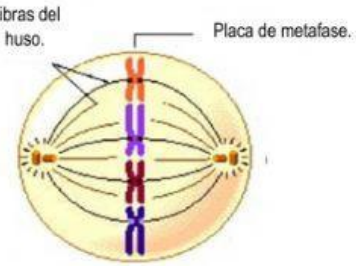

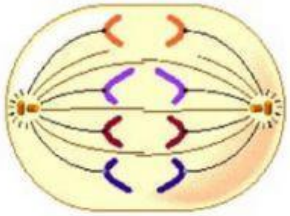

2: Según las siguientes imágenes ¿A qué fase de la meiosis I corresponden?

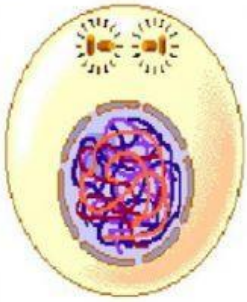

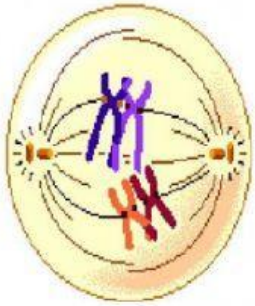

LIVEWORKSHEETS

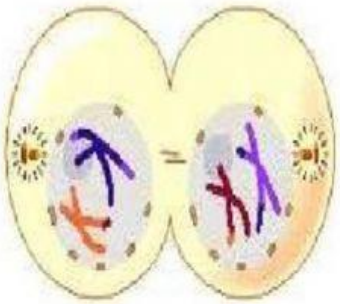

Movimiento de cromosomas.

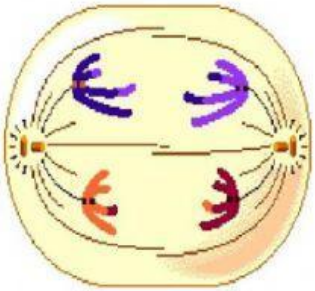

3: Según las siguientes imágenes ¿A qué fase de la meiosis II corresponden?

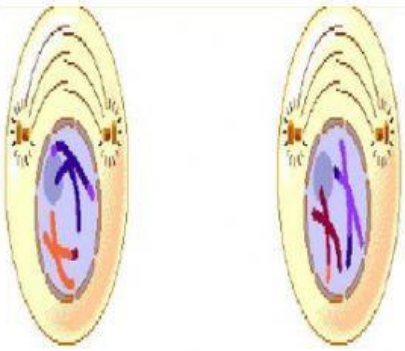

LIVEWORKSHEETS

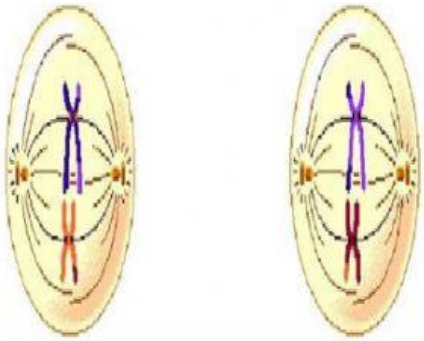

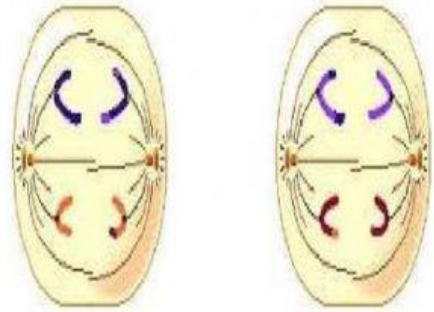

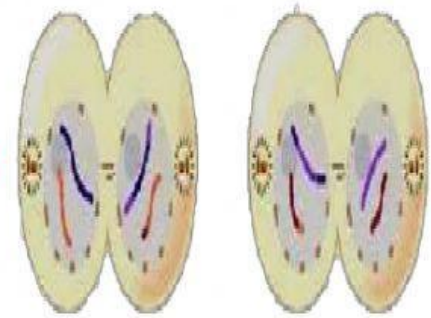

LIVEWORKSHEETS