CONTROL MATEMÁTICAS UNIDAD 8.

1. **Descompón los números y escríbelos correctamente.**

Número	C	D	U
603			
879			
780			
923			



2. **Completa las tablas.**

3 X 4 = ☐	3 X 7 = ☐	4 X 4 = ☐	2 X 3 = ☐	3 X 5 = ☐
4 X 5 = ☐	3 X 8 = ☐	6 X 4 = ☐	4 X 7 = ☐	4 X 9 = ☐
4 X 3 = ☐	1 X 3 = ☐	3 X 9 = ☐	3 X 10 = ☐	3 X 3 = ☐
3 X 5 = ☐	10 X 4 = ☐	2 X 4 = ☐	8 X 4 = ☐	1 X 4 = ☐

3. **Calcula.**

$$\begin{array}{r} 81 \\ \times\ 3 \\ \hline \square \end{array} \qquad \begin{array}{r} 220 \\ \times\ 4 \\ \hline \square \end{array} \qquad \begin{array}{r} 210 \\ \times\ 2 \\ \hline \square \end{array}$$

$$\begin{array}{r} 20 \\ \times\ 5 \\ \hline \square \end{array} \qquad \begin{array}{r} 421 \\ \times\ 3 \\ \hline \square \end{array}$$

LIVEWORKSHEETS

4. **Señala tantos cuadrados como figuras haya.**



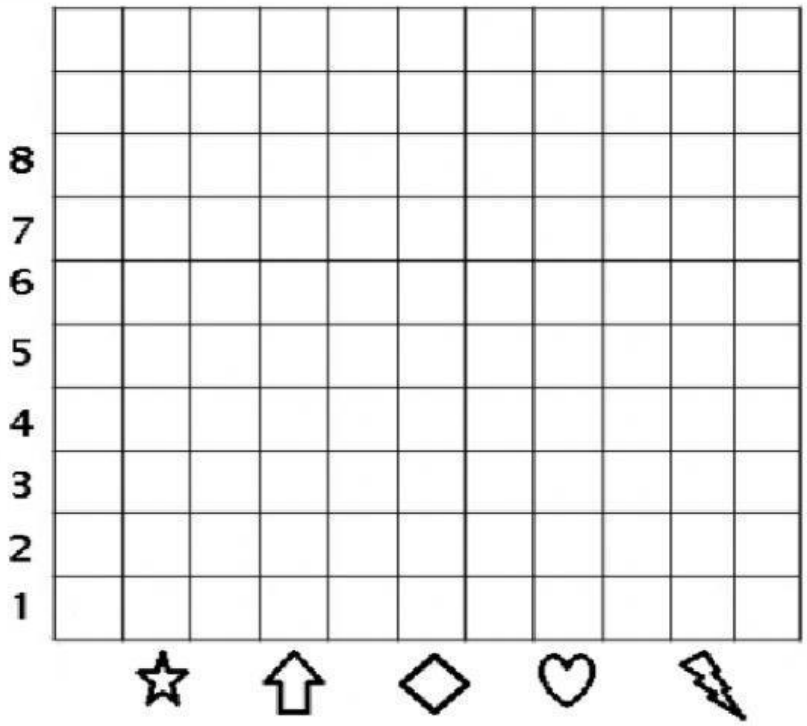

☆ 3
⇧ 5
◇ 2
♡ 4
⚡ 1

5. **Resuelve.**

Mi primo ha ido a la tienda y quiere todas las pelotas que hay. ¿Cuánto cuestan todas?

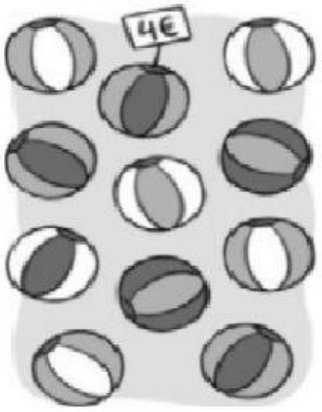

Datos

Precio de una pelota ▶ ☐

Número de pelotas ▶ ☐

Operación

☐ ○ ☐ = ☐

Solución

Cuestan ☐

LIVEWORKSHEETS