试卷一 圈出正确的答案。

1 哪种方法能准确地测量容器里的水温？

A

B

C



D

2 图 1 显示一碗热汤被搁置在桌上。

图 1

哪项显示热汤在两个小时后的观察结果？

A 变冷了
B 变热了
C 温度保持不变
D 先变冷，再变热

3 图 2 显示一项实验的设置。

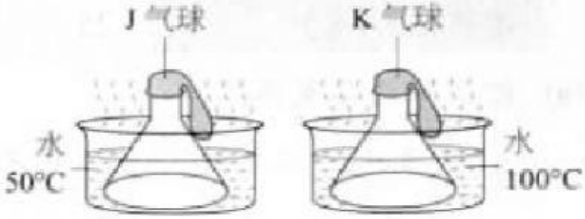

图 2

哪项有关上述实验在一分钟后的观察结果的说明是正确的？

A J 气球的体积比 K 气球大
B K 气球的体积比 J 气球大
C J 气球爆裂了，而 K 气球没有
D J 气球和 K 气球的体积是相同的

4 哪项显示热胀冷缩在日常生活中的应用？

A

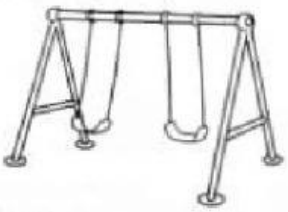

B

C

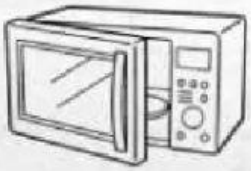

D

LIVEWORKSHEETS