# NATURALEZA:

## "El agua en el planeta tierra"

1-Elige la opción correcta:

a-El agua en nuestro planeta , se encuentra en estado sólido en :

| | | |
|---|---|---|
| Hielo, nevados y glaciares | Océanos, mares, lagos y ríos. | Nubes o vapor de agua |

b- El agua en nuestro planeta , se encuentra en estado líquido en :

| | | |
|---|---|---|
| Nubes o vapor de agua | Hielo, nevados y glaciares | Océanos, mares, lagos y ríos. |

c- El agua en nuestro planeta , se encuentra en estado gaseoso en :

| | | |
|---|---|---|
| Hielo, nevados y glaciares | Nubes o vapor de agua | Océanos, mares, lagos y ríos. |

2-Marca la "**C**": si el agua necesita **calor** para cambiar de estado, o una **"F"**, si necesita **frío** para cambiar de estado.



C F

C F

C F

LIVEWORKSHEETS

3-Arrastra la opción que corresponda al cambio de estado:

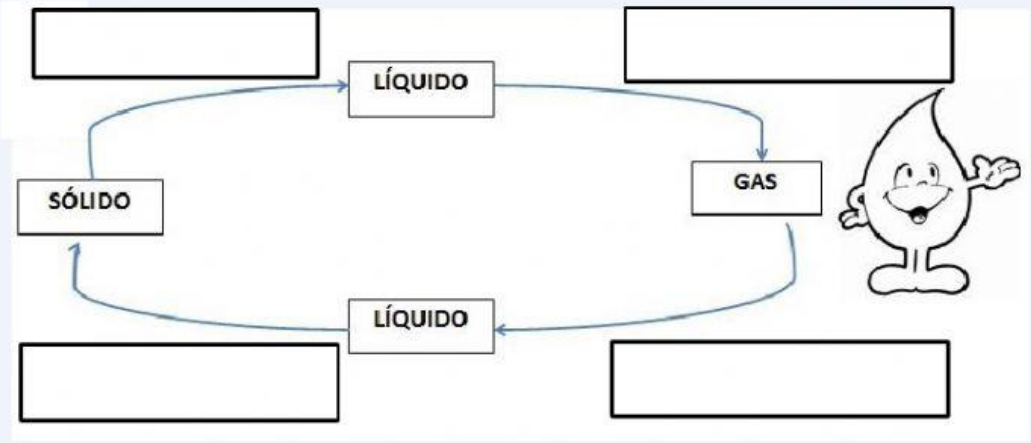


FUSIÓN

VAPORIZACIÓN

SOLIDIFICACIÓN

CONDENSACIÓN

4-Ordena las etapas del ciclo del agua



EVAPORACIÓN

CONDENSACIÓN

PRECIPITACIÓN

FILTRACIÓN

LIVEWORKSHEETS