NAMA

TING.

2.3.1	Elemen Sistem Elektrik iaitu Sumber, Medium, Beban Kawalan	

SUMBER

2 jenis sumber tenaga : a . _____

b . _____

1. CONTOH SUMBER TENAGA (a) :

i. ii.

iii. iv.

2. CONTOH SUMBER TENAGA (b) :

i. ii.

iii. iv.

MEDIUM

Ialah.....

.....

2 jenis medium : a . _____

b . _____

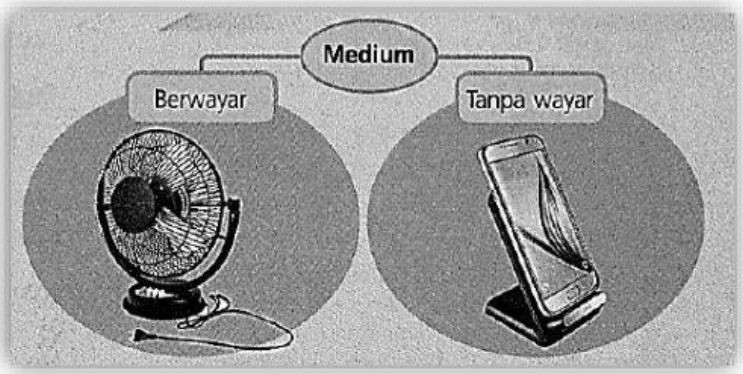

LIVEWORKSHEETS

BEBAN

Ialah.....

.....

Beban menghasilkan kesan berikut. Tuliskan kesan berpandukan gambarajah di bawah:

KAWALAN

Bermaksud.....

.....

Jenis-jenis Arus

ARUS ULANG ALIK		ARUS TERUS
	CIRI-CIRI DAN PERBEZAAN ARUS	

LIVEWORKSHEETS

2.3.2	Menunjukkan Cara Rekabentuk Litar Peralatan Elektrik	

KESELAMATAN



Ciri-ciri keselamatan yang terdapat di bahagian bawah periuk nasi

Kepentingan ciri-ciri keselamatan pada alat elektrik :

i.

ii.

KEDUDUKAN PERANTI DALAM LITAR

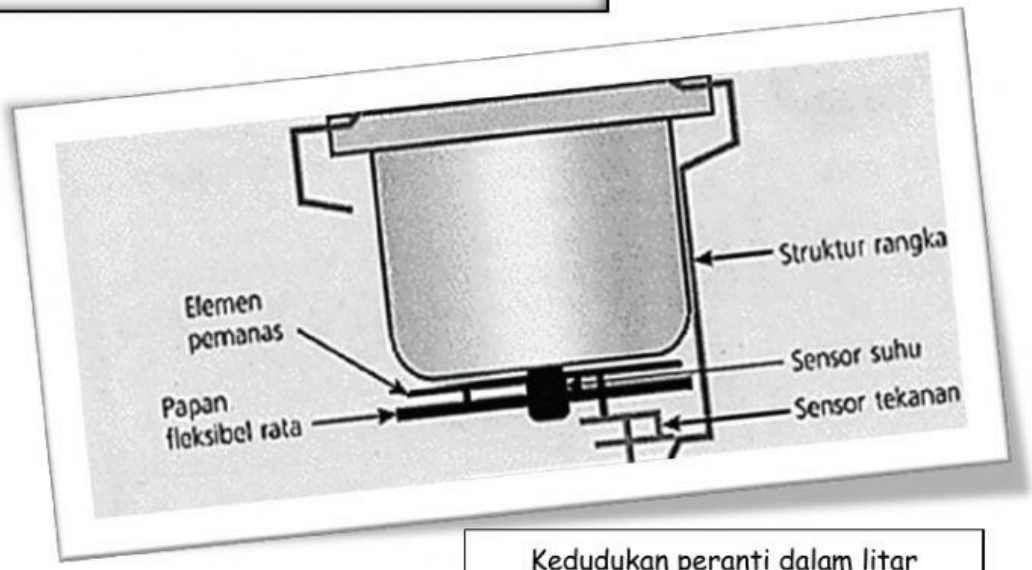

Kedudukan peranti dalam litar elektrik pada periuk nasi

Tujuan kedudukan peranti diletakkan dalam satu ruang khas?

i.

ii.

iii.

LIVEWORKSHEETS

SAMBUNGAN LITAR

LITAR TERTUTUP

Litar ini mempunyai

.....

.....

LITAR TERBUKA

Litar ini ialah

.....

.....

LIVEWORKSHEETS