ESCOLA ESTADUAL TENENTE MÓL – 3º ANO

GEOGRAFIA

1 - Dê o nome das dimensões conforme as setas indicam:

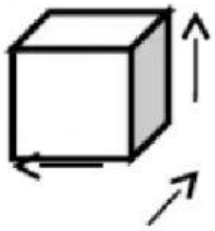

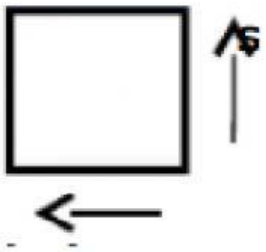

_____ _____

2 - Observe a imagem da planta de um bairro e responda às questões utilizando as informações da legenda ao lado:

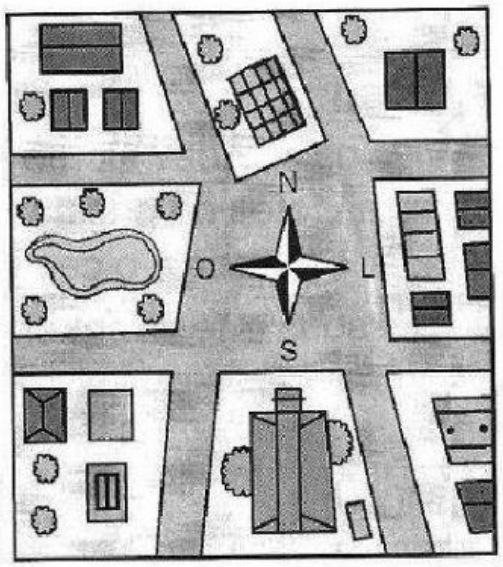

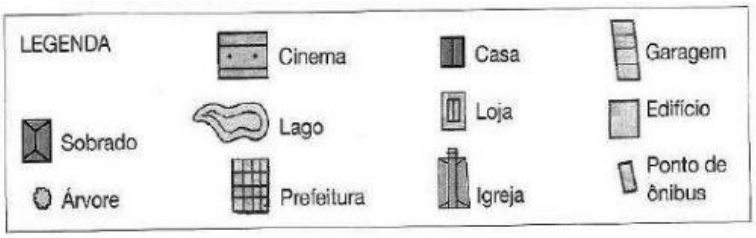

a) Oriente-se pela rosa dos ventos e descubra a direção destes lugares:

- igreja: _____
- lago: _____
- prefeitura: _____
- garagem: _____

b) De acordo com a legenda, quantas casas tem nessa imagem?_____

LIVEWORKSHEETS