Nama Siswa :

Nomor Absen :

Kelas :

Sekolah :

MODEL ATOM

A. Perhatikan penjelasan pada video di bawah ini!

B. Setelah menyimak video tersebut, silahkan kerjakan soal-soal berikut!

1. Elektron-elektron mengelilingi inti atom pada lintasan-lintasan tertentu dengan tingkat energi tertentu yang disebut dengan kulit atom. Pernyataan ini dikemukakan oleh . . . .
   A. John Dalton
   B. JJ Thomson
   C. Rutherford
   D. Neils Bohr
2. Pasangkan model atom berikut ini hingga sesuai berdasarkan nama penemunya dengan cara membuat garis penghubung antara gambar model atom dan nama penemu model atom.

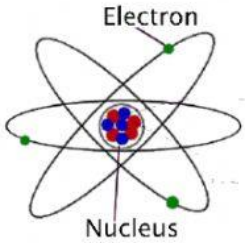

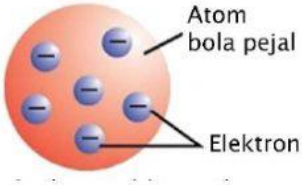

John Dalton | JJ Thomson | Rutherford

3. Pilihlah nama penemu model atom yang sesuai pada gambar berikut!

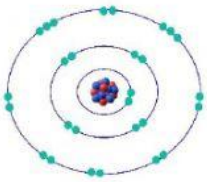

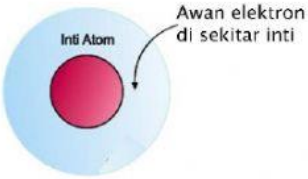

4. Tariklah nama kulit yang sesuai pada model atom berikut!

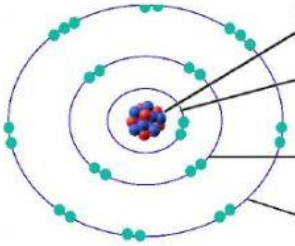

Kulit pertama /n = 1

Kulit kedua /n = 2

Kulit ketiga /n = 3

M = 18 elektron

K = 2 elektron

L = 8 elektron

LIVEWORKSHEETS