¿cuánto he aprendido?

1: **Escribe el nombre de estas figuras planas.**



a :_____



b: _____



c: _____

d:_____

f:_____

g: _____

2: Escriba el número de lados y vértices de las siguientes figuras.

Lados

Vértices



Lados

vértices

lados

vértices

3: Encontramos el polígono desconocido. En cada uno de los siguientes casos.

A: tiene cuatro lados, cuatro vértices y cuatro ángulos.

B: tiene tres lados, tres vértices, y tres triángulos.

LIVEWORKSHEETS

4: observo las siguientes figuras y escojo las respuestas correctas.



Los objetos que tiene forma semejante entre si son.

A:

las caras de la caja de cereales son:

b:

el área de la base de cereales es:

c:

LIVEWORKSHEETS