Họ tên: _____ Lớp: ____ Ngày: ___/ ___/2020

# HÌNH CHỮ NHẬT VÀ HÌNH VUÔNG

**Bài 1:** Kéo và thả vào vị trí thích hợp.

| Chiều dài HG | Đỉnh H | Góc E | Chiều rộng FG |
|---|---|---|---|

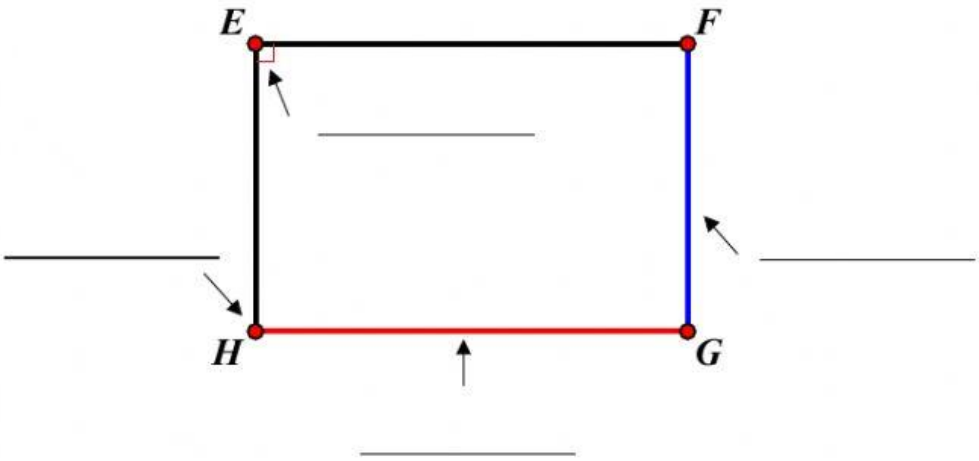


**Bài 2:** Điền vào chỗ trống.

Hình vuông có _____ cạnh bằng nhau,
_____ đỉnh và _____ góc vuông.



Hình tam giác có _____ cạnh, _____ đỉnh
và _____ góc.



Hình chữ nhật có _____ chiều dài, _____ chiều rộng,
_____ đỉnh và _____ góc vuông.

LIVEWORKSHEETS