Elige la opción correcta.

¿Cuál de los siguientes objetos es utilizado para observar objetos lejanos como las estrellas, otros planetas y galaxias?

a)

b)

c)

Es un satélite artificial, construido y puesto en órbita por los seres humanos.

a)

b)

c)

Elige el nombre correcto para cada componente del siguiente circuito eléctrico.

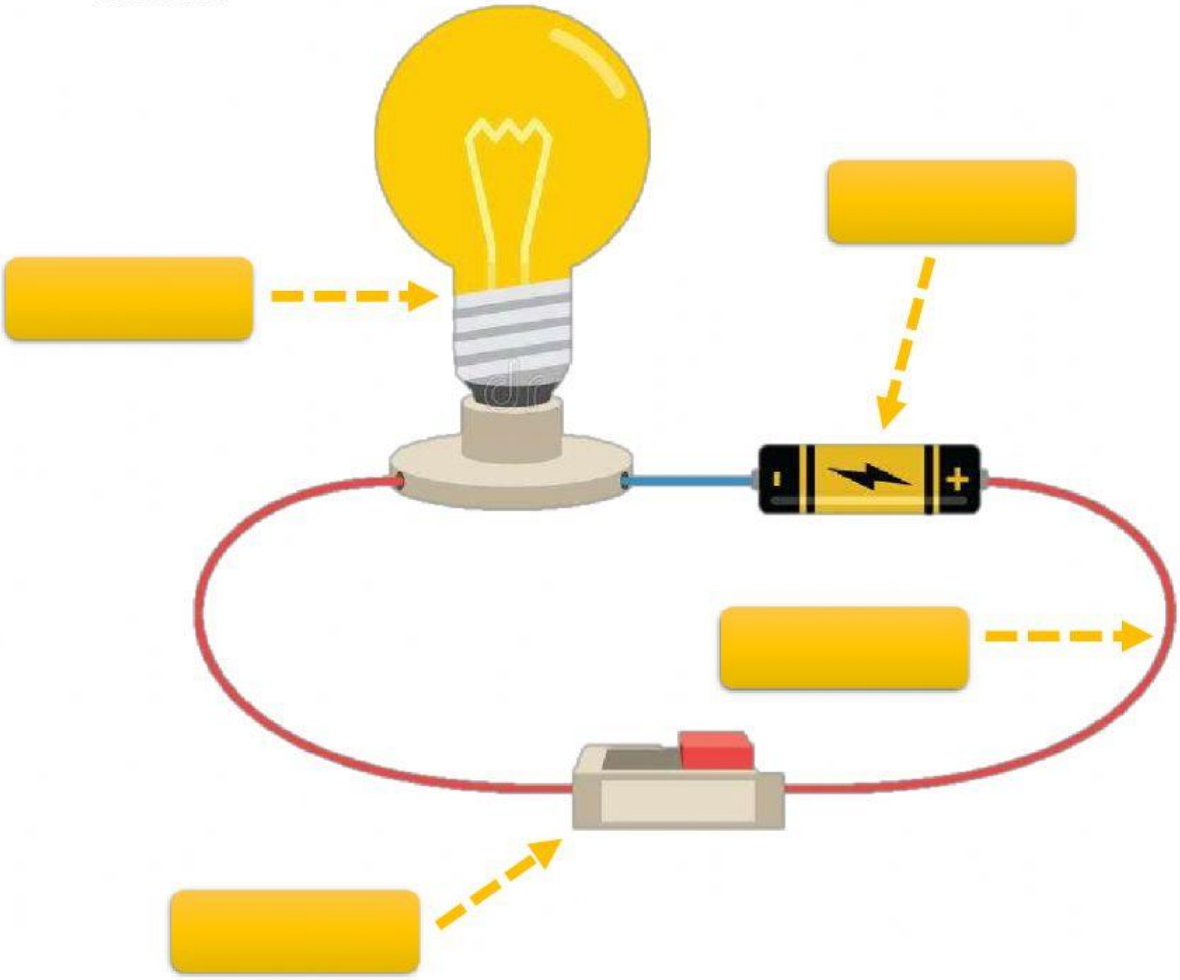

LIVEWORKSHEETS

Une con una línea cada componente del circuito con la funciona que realiza.

Proporciona la energía necesaria para el circuito.

Permite o bloquea el paso de energía eléctrica.

Transforma la energía eléctrica en energía lumínica.

Une los componentes del circuito y permite el flujo de energía eléctrica.



Elige el mecanismo de transferencia de calor que está ocurriendo en cada imagen.

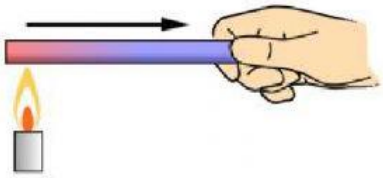

LIVEWORKSHEETS