Tahun: .....

LEMBARAN KERJA PKP 54

UNIT 9: Koordinat

Rujukan Buku Teks
Unit 9; m.s. 151 – 156

Jawab semua soalan.

1. Rajah di bawah menunjukkan satu garis lurus yang dilukis di atas satah Cartes. Garis lurus itu melalui tiga titik, *E*, *F* dan *G*.

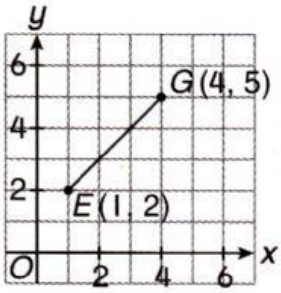

Apakah koordinat yang mungkin bagi titik *F*?

A (1, 3) **B** (3, 2)
C (3, 4) **D** (4, 4)

2. Rajah di bawah menunjukkan kedudukan rumah empat orang murid pada suatu satah Cartes.

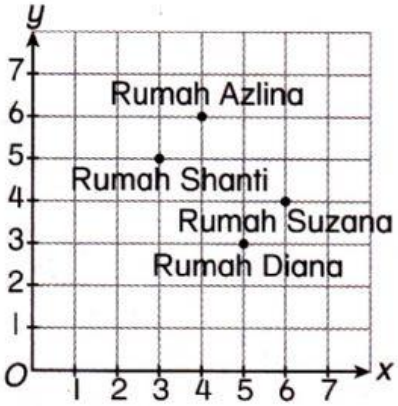

Rumah siapakah terletak pada koordinat (6, 4)?

A Rumah Azlina
B Rumah Diana
C Rumah Shanti
D Rumah Suzana

3. Rajah di bawah menunjukkan satu satah Cartes.

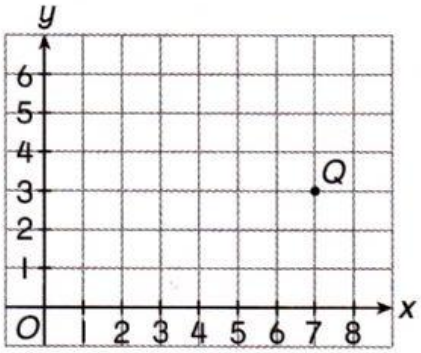

Apakah jarak mengufuk titik *Q* dari asalan?

A 3 unit
B 4 unit
C 6 unit
D 7 unit

4. Rajah di bawah menunjukkan satu satah Cartes.

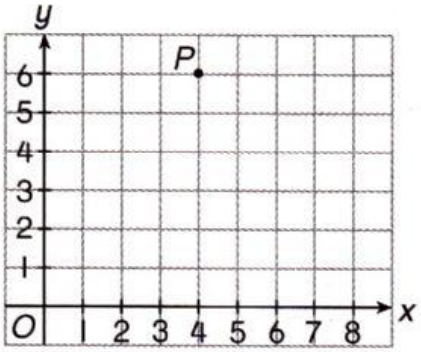

Jarak mencancang titik *R* ke titik *P* ialah 4 unit. Apakah koordinat bagi titik *R*?

A (0, 6)
B (2, 4)
C (4, 2)
D (8, 6)

LIVEWORKSHEETS