Nama :

Kelas :

Dengan menggunakan Teorema Pythagoras tentuk menentukan

1. Panjang t pada segitiga siku-siku di bawah ini adalah...

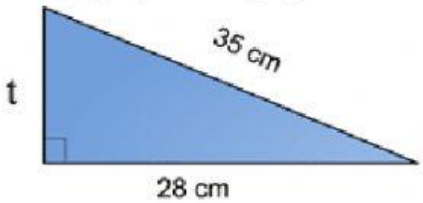

2. Panjang AD pada gambar bangun di bawah adalah ...

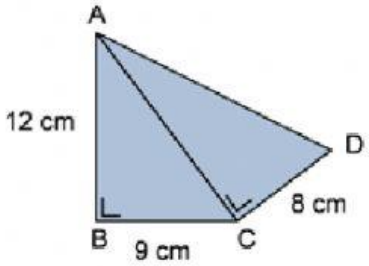

3. Panjang PQ pada gambar bangun di bawah adalah ...

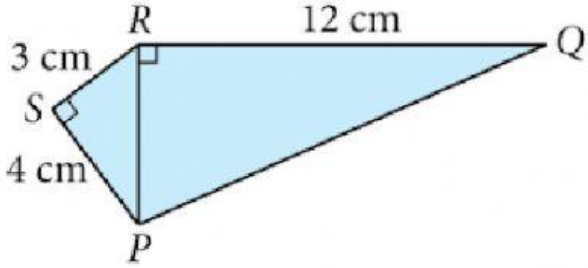

LIVEWORKSHEETS