UNIDAD EDUCATIVA "SANTA LUISA DE MARILLAC"
Hijas de la Caridad
Machachi-Ecuador

Profe:
EDISON QUINTERO

EVALUACION QUIMESTRAL

PROYECTO – AJEDREZ

1. **Indica el nombre de cada una de las piezas.**



2. **Completa en el texto con el valor (los puntos) de cada pieza. Usa las palabras de recuadro.**

Un	Tres	Nueve	Infinitos	Cinco

El Rey tiene un valor de _____ puntos. En cambio, la dama vale _____ puntos. La torre vale _____ puntos y el caballo, la pieza que está a su lado, vale _____ puntos. Pata terminar el valor del peón es de _____ punto.

LIVEWORKSHEETS

3. En la sopa de letras busca las piezas del ajedrez.

D	A	M	A	X	R	A	X
C	V	B	N	M	E	L	M
Q	W	E	C	G	Y	F	B
S	D	F	V	B	G	I	Y
S	E	R	R	O	T	L	Y
F	P	P	E	O	N	E	S
C	A	B	A	L	B	S	D
W	K	Ñ	R	U	H	S	D
C	A	B	A	L	L	O	S

4.-Une con linea la pieza y su nombre.

5.-Relaciona cada pieza con su movimiento.

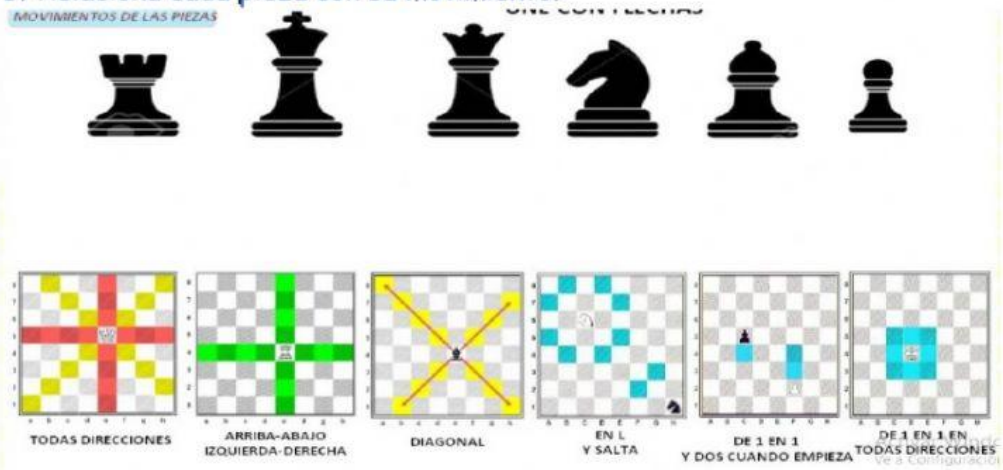

LIVEWORKSHEETS

6.- Coloca su posición incial cada una de las piezas.



COLOCA EN SU POSICIÓN INICIAL CADA UNA DE ESTAS PIEZAS

7.- COMPLETA LA JUGADA CON UN SOLO MOVIMIENTO. ELEJE LA OPCION CORRECTA.



LIVEWORKSHEETS

UNIDAD EDUCATIVA "SANTA LUISA DE MARILLAC"
Hijas de la Caridad
Machachi-Ecuador

Felices vacaciones

Dirección: García Moreno E-139 y Sucre

Teléfonos: (02) 2315-062
Email: uelmachachi@gmail.com

Formar integralmente hombres y mujeres dispuestos a servir.

LIVEWORKSHEETS