ESCUELA DE EDUCACIÓN BÁSICA "LAURA VICUÑA"
Av. 24 de septiembre y Zenón Macías
AÑO LECTIVO
2021-2022

Matemática

LA DIVISIÓN

1. Halla los cocientes:

42 ÷ 7 = ☐

25 ÷ 5 = ☐

24 ÷ 8 = ☐

32 ÷ 8 = ☐

50 ÷ 10 = ☐

90 ÷ 9 = ☐

54 ÷ 9 = ☐

72 ÷ 8 = ☐

2. Completa las siguientes tablas:

Dividendo	10	21		25	63	36	
Divisor		7	5			4	3
Cociente	5		8	5	9		9

3. Piensa y responde:

- El cociente de 20 ÷ 5 es: _____
- Si el divisor es 7 y el cociente 9, el dividendo es: _____
- El cociente de 36 y 9 es: _____
- Si el dividendo es 54 y el cociente 9, el divisor es: _____

LIVEWORKSHEETS

4. Completa los números que faltan.

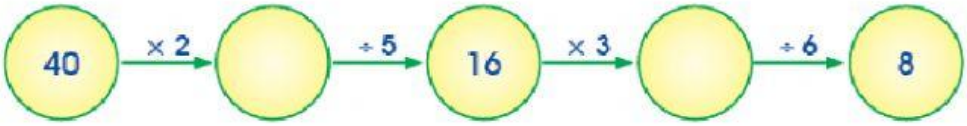

División Exacta

5. Halla el cociente en cada división.

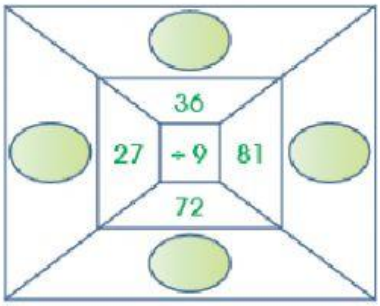

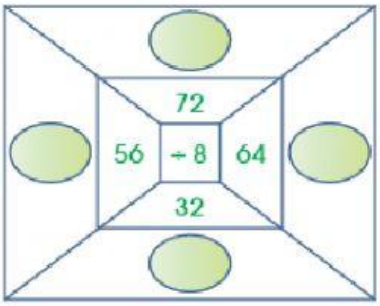

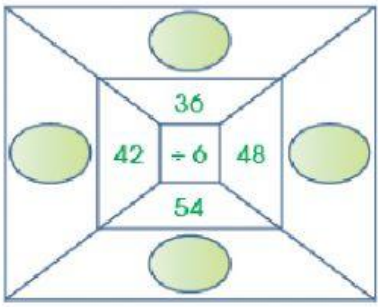

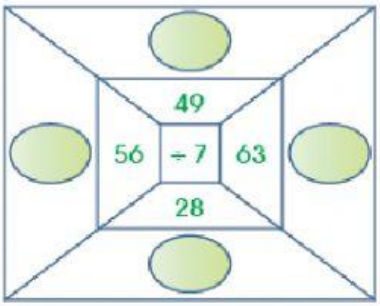

LIVEWORKSHEETS

División Inexacta

6. Calcula las siguientes divisiones inexactas:

a) 315 | 2 b) 219 | 9 c) 152 | 6

7. Realiza las divisiones y completa.

213 ÷ 2 =	148 ÷ 5 =	138 ÷ 4 =
El residuo es = ____	El residuo es = ____	El residuo es = ____

LIVEWORKSHEETS

Matemática

8. Resuelve las divisiones y ubica la letra, que representa al cociente, para encontrar el hueso más largo del cuerpo humano.

254 ⌊8 — E

491 ⌊6 — R

645 ⌊5 — F

783 ⌊2 — U

829 ⌊9 — M

____ 129 ____ 31 ____ 92 ____ 391 ____ 81

LIVEWORKSHEETS