اسم الطالب : _____ الصف : _____

رقم السؤال	المهارة	المخرجات	الاجابة	مستوى الصعوبة
1	الاشكال الهندسية والقياس	تعريف ورسم انواع الزوايا والعلاقات بينها في الاشكال الهندسية وحل المشكلات الرياضية المتعلقة بذلك		سهل

في الشكل المجاور تقاطع لمستقيمين

PQ ,RS

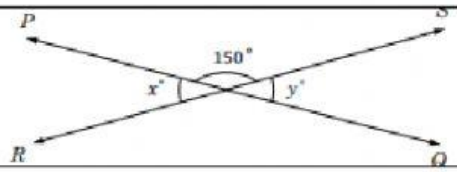

ماهي قيمة X+Y

Ⓐ 15

Ⓑ 30

Ⓒ 60

Ⓓ 180

Ⓔ 300

LIVEWORKSHEETS

اسم الطالب : _____ الصف : _____

رقم السؤال	المهارة	المخرجات	الاجابة	مستوى الصعوبة
2	الاشكال الهندسية والقياس	تعريف ورسم انواع الزوايا والعلاقات بينها في الاشكال الهندسية وحل المشكلات الرياضية المتعلقة بذلك		سهل

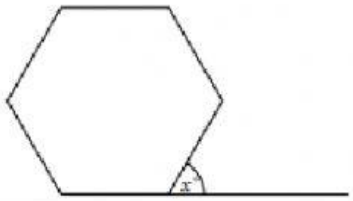

الشكل بالاعلى يمثل سداسي منتظم . ماهي قيمة X

Answer: _____

LIVEWORKSHEETS

اسم الطالب : _____ الصف : _____

رقم السؤال	المهارة	المخرجات	الاجابة	مستوى الصعوبة
3	الاشكال الهندسية والقياس	تعريف الاشكال ثنائية الابعاد واستخدام الخصائص الهندسية لحل المشكلات الرياضية المتعلقة بالمحيط والمساحة		متوسط

078

صورة مسجد مستطيلة الشكل موضوعة على ورقة بيضاء كما هو مبين:

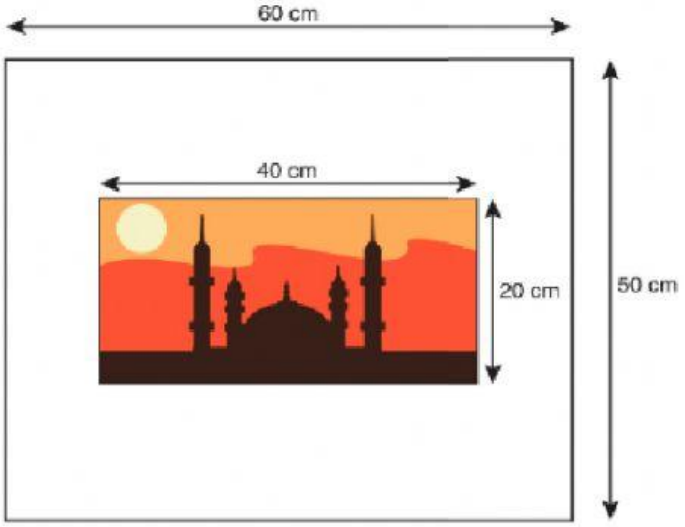

ما مساحة المنطقة البيضاء غير المغطاة بالصورة؟

A 800 cm^2 B 2200 cm^2 C 3000 cm^2 D 3800 cm^2

LIVEWORKSHEETS

اسم الطالب : _____ الصف : _____

رقم السؤال	المهارة	المخرجات	الاجابة	مستوى الصعوبة
4	الاشكال الهندسية والقياس	تعريف الاشكال ثنائية الابعاد واستخدام الخصائص الهندسية لحل المشكلات الرياضية المتعلقة بالمحيط والمساحة		متوسط

إذا كانت مساحة الشكل المظلل هي $6\ cm^2$.

ما هي مساحة الشبكة بأكملها بما في ذلك الشكل المظلل؟



A $16\ cm^2$

B $24\ cm^2$

C $42\ cm^2$

D $48\ cm^2$

LIVEWORKSHEETS

اسم الطالب : _____ الصف : _____

رقم السؤال	المهارة	المخرجات	الاجابة	مستوى الصعوبة
5	الاشكال الهندسية والقياس	تعريف الاشكال ثنائية الابعاد واستخدام الخصائص الهندسية لحل المشكلات الرياضية المتعلقة بالمحيط والمساحة		متوسط

اي شكل له المساحة الاكبر؟

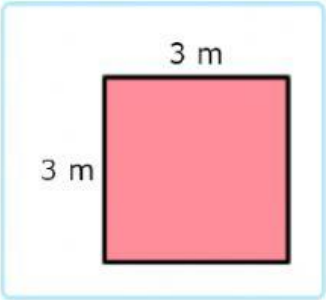

A

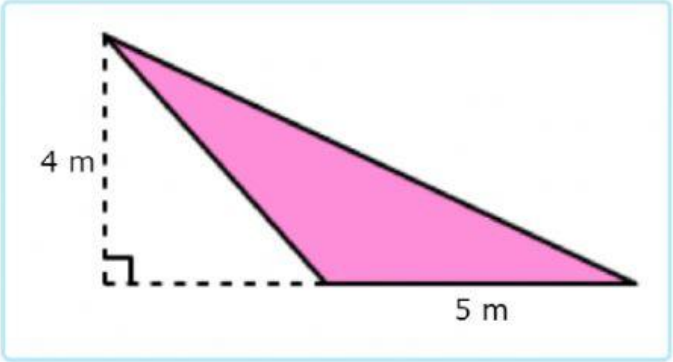

B

LIVEWORKSHEETS

اسم الطالب : _____ الصف : _____

رقم السؤال	المهارة	المخرجات	الاجابة	مستوى الصعوبة
6	الاشكال الهندسية والقياس	تعريف الاشكال ثلاثية الابعاد واستخدام خصائصها الهندسية لحل المشكلات الرياضية المتعلقة بمساحه السطح والحجم والربط بينها وبين الاشكال ثنائية الابعاد		متوسط

اي مجسم له الحجم الاكبر؟

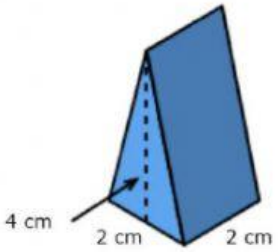

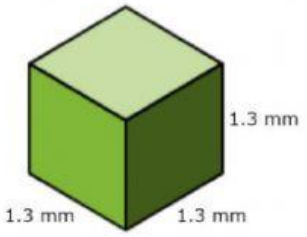

LIVEWORKSHEETS

اسم الطالب : _____ الصف : _____

رقم السؤال	المهارة	المخرجات	الاجابة	مستوى الصعوبة
7	الاشكال الهندسية والقياس	تعريف الاشكال ثلاثية الابعاد واستخدام خصائصها الهندسية لحل المشكلات الرياضية المتعلقة بمساحه السطح والحجم والربط بينها وبين الاشكال ثنائية الابعاد		سهل

اي الاشكال التاية يكون هرم رباعى عند طيه؟

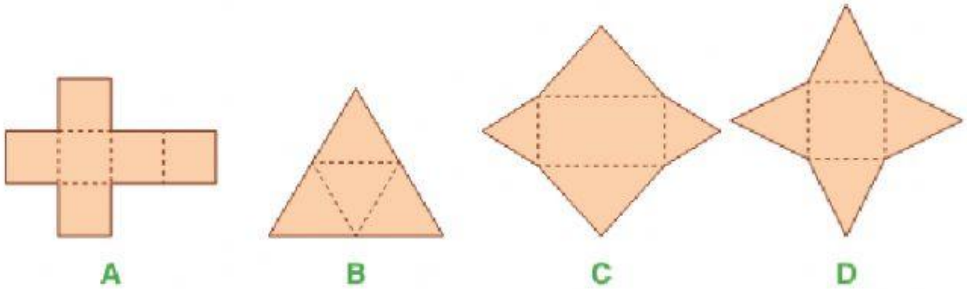

LIVEWORKSHEETS

اسم الطالب : _____ الصف : _____

رقم السؤال	المهارة	المخرجات	الاجابة	مستوى الصعوبة
8	الاشكال الهندسية والقياس	تعريف الاشكال ثلاثية الابعاد واستخدام خصائصها الهندسية لحل المشكلات الرياضية المتعلقة بمساحه السطح والحجم والربط بينها وبين الاشكال ثنائية الابعاد		سهل

ما المجسم الذي يتكون من طي الشبكة الموضحة ؟

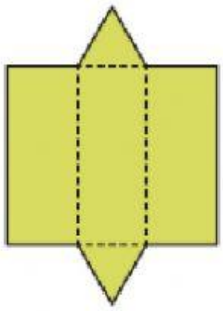

A هرم رباعي

B هرم ثلاثي

C منشور رباعي

D منشور ثلاثي

LIVEWORKSHEETS