PET 2 – MATEMÁTICA - SEMANA 5

TEMA: Localização e movimentação de pessoas e objetos no espaço

ATIVIDADES

1 - Observe a localização de cada animal.

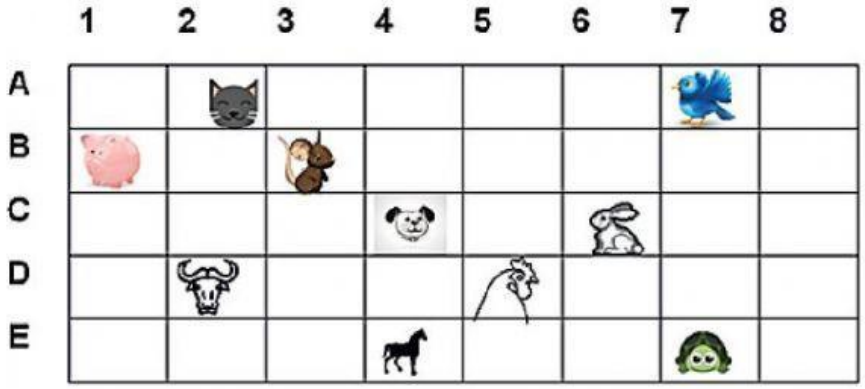

Disponível em:<https://ensinarhoje.com/wp-content/uploads/2019/07/Atividade-de-localiza%C3%A7%C3%A3o-em-malha-quadriculada.png>. Acesso em: 28 mar. 2021.

Agora registre a localização de cada animal na tabela abaixo. Siga o exemplo:

ANIMAL	LOCALIZAÇÃO
Boi	**D, 2**
Cachorro	
Cavalo	
Galo	
Gato	
Pássaro	
Porco	
Tartaruga	

LIVEWORKSHEETS

2 - Observe a imagem do parque.

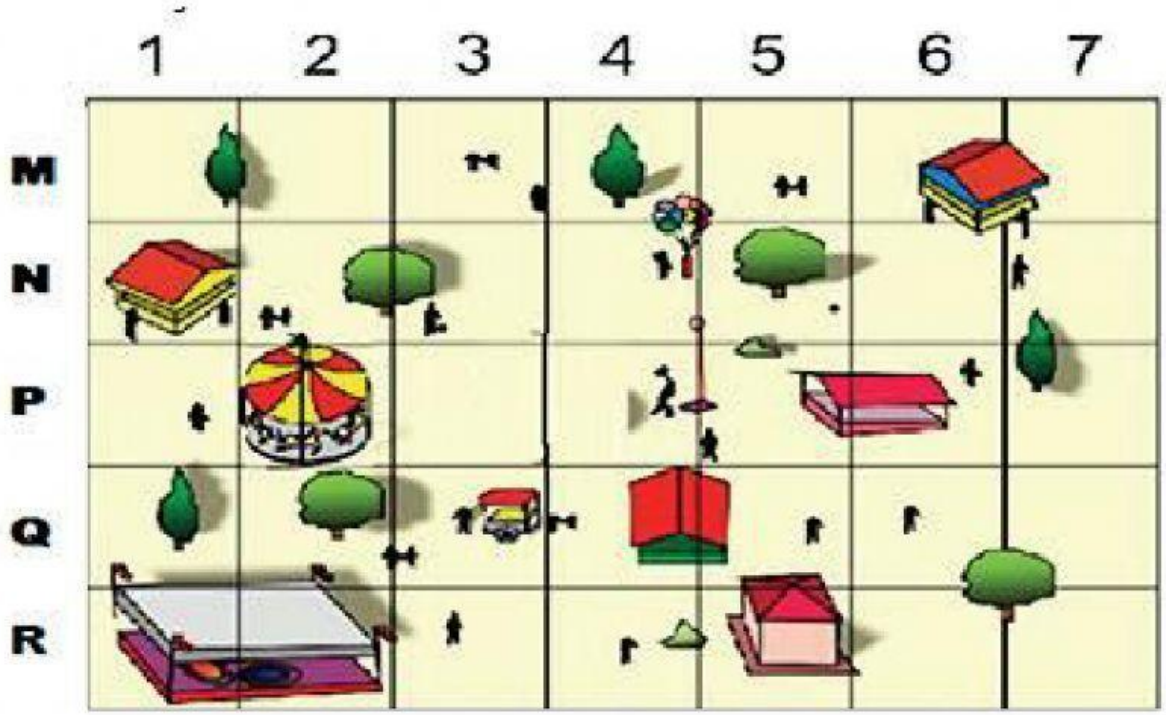

Disponível em: <https://www.professoracarol.org/HOTPOTATOES/DESCRITORES/MAT/D01.htm>. Acesso em: 28 mar. 2021.

De acordo com a imagem acima, qual é a localização do vendedor de balões?

- [ ] R, 4
- [ ] P, 7
- [ ] N, 4
- [ ] N, 1

LIVEWORKSHEETS

3 - Na escola Camila fez um desenho para mostrar a localização de sua casa e de suas melhores amigas.

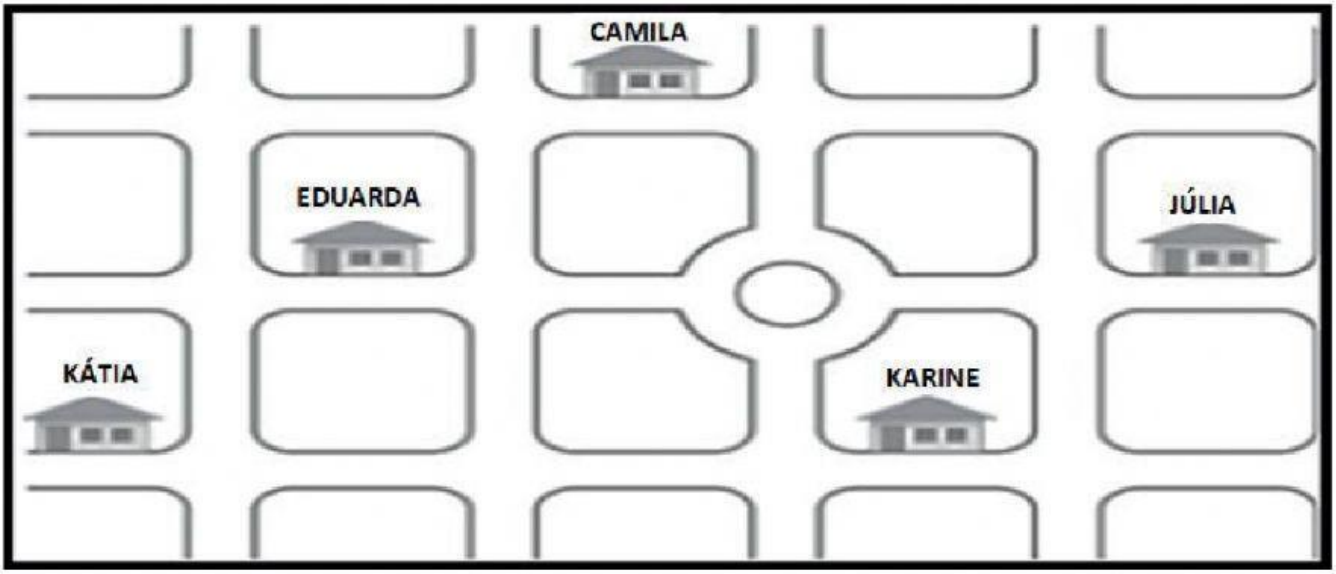

Disponível em: <https://www.professoracarol.org/HOTPOTATOES/DESCRITORES/MAT/D01.htm>. Acesso em: 28 mar. 2021.

Observe o desenho e use como referência a casa de Camila.

A) A casa de qual amiga de Camila é mais longe?

_____

B) A casa de qual amiga de Camila é mais perto?

_____

C) Com um lápis de cor azul faça o trajeto de Kátia até a casa de Camila.

FAZER ESSA ATIVIDADE DESENHANDO O TRAJETO NA FOTO ENVIADA NO GRUPO DA SALA.

LIVEWORKSHEETS

4 - Observe o mapa do tesouro que Rafael desenhou.



Fonte: <https://papelarrozcomestivel.loja2.com.br/8457726-Papel-arroz-P-A4-Mapa-do-Tesouro-Pirata-004>. Acesso em: 29 mar. 2021

A) Escreva o que está à esquerda do pirata. _____

B) Escreva o que está embaixo do pirata. _____

C) Escreva o que está em cima do papagaio. _____

LIVEWORKSHEETS

5 - Pense num trajeto mais fácil para Carla não chegar atrasada na aula. Ajude Carla a chegar até a escola fazendo um X nos quadradinhos por onde ela irá passar.



Em quantos quadradinhos você colocou o X? Em _____ quadradinhos.

LIVEWORKSHEETS