LEMBARAN KERJA SAINS TAHUN 2

UNIT: TERANG DAN GELAP

NAMA : …….. **KELAS : ……..**

A. Pilih BETUL atau SALAH bagi kegunaan sumber cahaya di bawah.

1.



Digunakan untuk berkayak	
Digunakan semasa berkhemah di dalam hutan	

2.

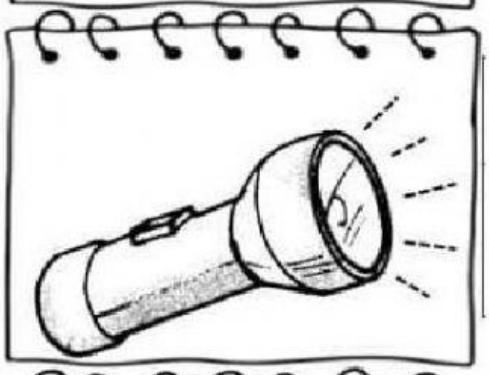

Digunakan untuk memberi cahaya apabila gelap	
Digunakan untuk membantu manusia berteduh	

3.

Digunakan ketika bermain bunga api pada waktu malam	
Digunakan ketika bermain laying-layang pada waktu siang	

4.

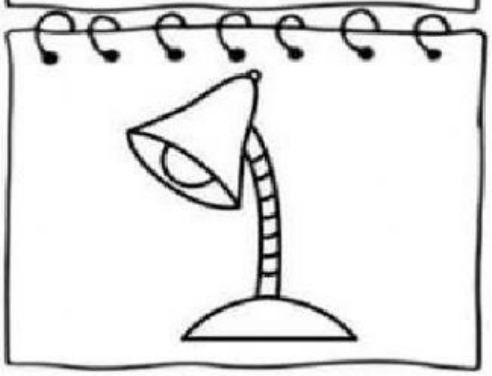

Digunakan untuk membantu pelajar belajar waktu malam	
Digunakan sebagai alat muzik	

LIVEWORKSHEETS

LEMBARAN KERJA SAINS TAHUN 2

UNIT: TERANG DAN GELAP

B. Berdasarkan situasi gambar yang diberi . Pilih (klik) sumber cahaya yang diperlukan.

1.

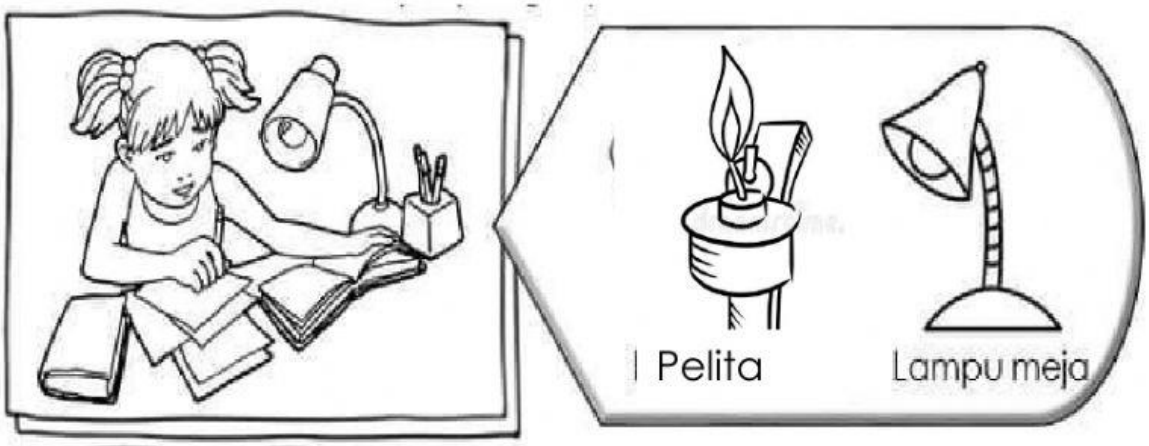

2.

3.

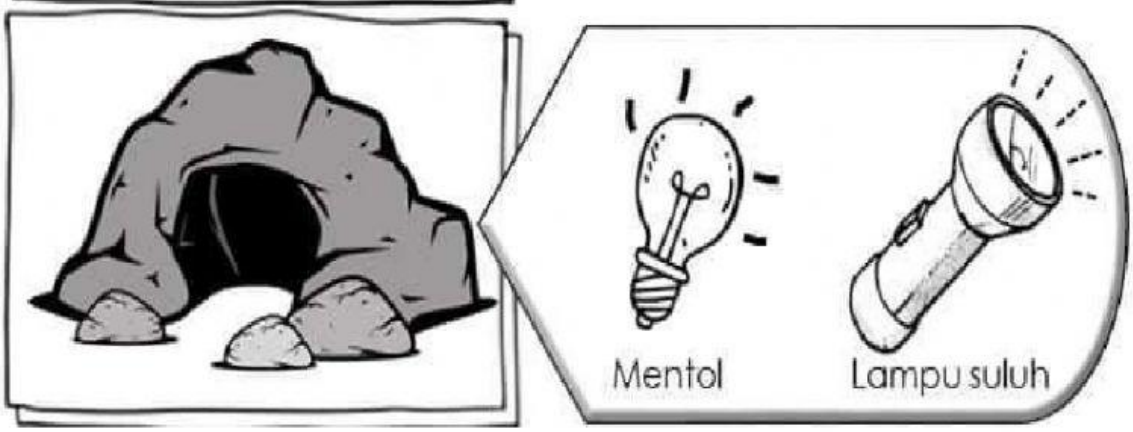

LIVEWORKSHEETS

LEMBARAN KERJA SAINS TAHUN 2

UNIT: TERANG DAN GELAP

C. Padankan situasi terang atau gelap berdasarkan gambar yang diberi.



TERANG	**GELAP**

TERANG	**GELAP**

LIVEWORKSHEETS

LEMBARAN KERJA SAINS TAHUN 2

UNIT: TERANG DAN GELAP

D. Pilih jawapan yang betul berdasarkan gambar yang diberi.

1.

Apabila ada cahaya yang **(gelap,terang)** kita dapat membaca buku.

2.

Kita dapat melihat kilat dengan jelas pada waktu **(gelap,terang)**

3.

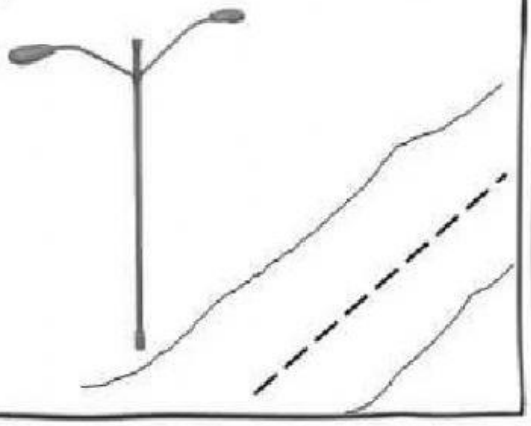

Tiang lampu akan terpasang secara automatik pada waktu **(gelap,terang)**

4.

Linda bangun pagi apabila melihat matahari sudah **(gelap,terang)**

LIVEWORKSHEETS