Sector/Subsector: Historia, Geografía y Ciencias Sociales. Profesor (a): Patricia Alarcón Valenzuela.	% DE EXIGENCIA	PUNTAJE TOTAL	PUNTAJE OBTENIDO	
Evaluación Enseñanza Remota 2 3° año Básico	60 %	33pts.		Calificación
Nombres y Apellidos:				Fecha:
OBJETIVO DE APRENDIZAJE	OA 08 - Identificar y ubicar en mapas las principales zonas climáticas del mundo y dar ejemplos de distintos paisajes que pueden encontrarse en estas zonas y de cómo las personas han elaborado diferentes estrategias para habitarlos.			
CONTENIDOS	➢ Ubicacion zonas climáticas. ➢ Características de las zonas climáticas. ➢ Paisajes de las zonas climáticas. ➢ Adaptacion a las diferentes zonas climáticas y sus paisajes.			

1. **Lee las siguientes preguntas y marca con una X la opción correcta** **21 pts.**

Esta zona se ubica alrededor de la línea del ecuador, entre ambos trópicos y recibe la radiación solar de forma perpendicular. En ella se pueden encontrar paisajes de selva y sabana, y se caracteriza por la existencia de una vegetación abundante y muy variada.

A) **¿A qué zona climática corresponde la descripción?**

A) Templada.

B) Cálida.

C) Polar.

D) Fría.

B) **Observa atentamente la siguiente imagen ¿para cuál de las zonas climáticas esta vestimenta es la más adecuada?**

A) Zona cálida

B) Zona fría

C) Zona templada

D) Zona tropical.

LIVEWORKSHEETS

C. **Observa las imágenes y selecciona la que indica correctamente la distribución de las zonas climáticas de la tierra**.

A)

B)



C)

D) **Observa la siguiente imagen y luego responde.**



¿Qué zona climática se destaca en la imagen?

A) Zona intertropical o cálida.

B) Zona fría del sur.

C) Zona templada

D) Zona fría.

LIVEWORKSHEETS

E) **Observa la siguiente imagen y responde ¿a qué zona climática pertenece este tipo de paisaje?**

A) Zona cálida.

B) Zona templada.

C) Ninguna de las anteriores.

Observe la siguiente imagen y luego responda.

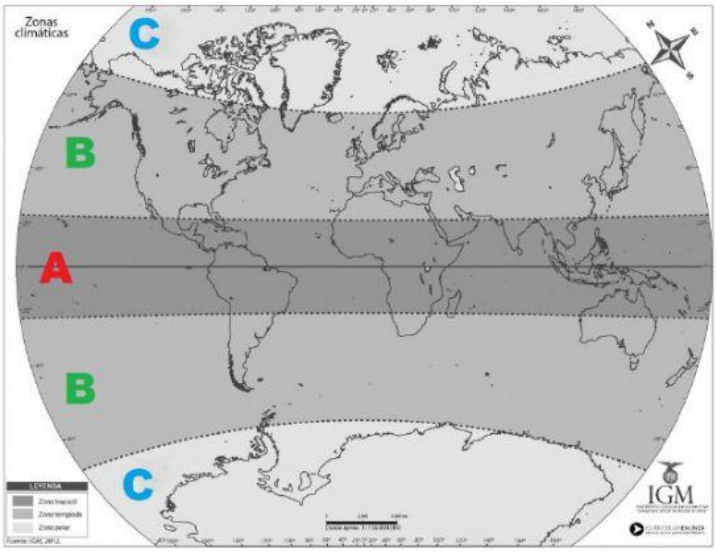

F) **¿Qué zona climática está identificada con la letra B?**

A) Cálida

B) Templada

C) Fría

D) Polar

LIVEWORKSHEETS

G) **Observe atentamente las siguientes imágenes ¿a qué zona climática corresponden estos paisajes?**

A) Zona templada

B) Zona fría

C) Zona cálida

D) Zona fría sur

Lee atentamente el siguiente texto y marca con una X la respuesta correcta **12 pts.**

La forma en que los seres humanos han adaptado su vida a las diversas zonas climáticas y paisajes del mundo

Los seres humanos tienen la **capacidad de adaptarse** a su entorno. Esto es, acomodar su forma de vida al contexto geográfico que habita. Por esta razón, podemos encontrar comunidades que habitan tanto la cordillera, como el desierto o los fríos extremos del clima polar.

El ser humano es inteligente porque es capaz de reflexionar y dar soluciones creativas a los diversos "problemas" que se le presentan. Un ejemplo de ello, son las diferentes **estrategias** que las sociedades han elaborado para poder vivir en lugares que son hostiles, como la selva. Entendemos por estrategia al **conjunto de medidas o acciones que las personas implementan para obtener lo que quieren.**

H) 1 .**La adaptación según el texto es una "capacidad de adaptarse al entorno" es decir:**

A. Acostumbrarse a un clima y paisaje que le entrega todo lo que necesita.

B. El contexto geográfico que habita lo acomoda a su forma de vida.

C. Emigrar hacia diferentes lugares buscando el entorno ideal.

D. Desarrollar la capacidad de acomodar su forma de vida al contexto geográfico.

2. **El ser humano es capaz de habitar los distintos paisajes y climas de la tierra esto es porque...**
   A) Posee la suficiente inteligencia para reflexionar y resolver los problemas que el entorno le presenta.
   B) No quiere ir de un lugar a otro y decide quedarse en cualquier lugar.
   C) Es un ser con habilidades diferentes a otro seres vivos.
   D) Ninguna de las anteriores.

LIVEWORKSHEETS

3. **"La selva es un lugar en el cual la forma de vida se hace difícil ya que el entorno geográfico y el clima son hostiles y difíciles de adaptar para el ser humano",** respecto de lo anterior que crees que es lo más difícil de solucionar por el hombre al vivir en la selva:

A. El difícil acceso a agua y a los recursos naturales.
B. El clima y sus características.
C. La vegetación y el convivir con animales salvajes.
D. Todas las anteriores.

PAUTA DE EVALUACIÓN ENSEÑANZA REMOTA

Asignatura: Historia, Geografía y Ciencias Sociales

Curso: Tercero Básico. Docente: Patricia Alarcón Valenzuela.

INDICADORES DE LOGRO	LOGRADO 100% _ 81%	MEDIANAMENTE LOGRADO 80% - 61%	POR LOGRAR 60% - 49%	NO OBSERVADO 48% - 0%
Los estudiantes reconocen las zonas climaticas del planeta.				
Los estudiantes asocian zona climatica y paisaje				
Los estudiantes reconocen la zona climática preponderante en chile				
Los estudiantes desarrollan la comprensión de textos correctamente.				
Los estudiantes identifican la adaptacion del vestuario de una zona climatica.				

LIVEWORKSHEETS

LIVEWORKSHEETS