GLORIOSA INSTITUCIÓN EDUCATIVA
"MEDALLA MILAGROSA"
CALLE: SANTA ROSA Nº 100 – FERREÑAFE

"AÑO DEL BICENTENARIO DEL PERÚ: 200 AÑOS DE INDEPENDENCIA"

Contamos artesanías

Segundo grado Los Koalas

1. Leemos el siguiente problema :

La familia de Carlos y Adriana están orgullosos de las artesanías que elaboran. Ellos hicieron pulseras, llaveros, bolsas y portalapiceros con materiales que hay en la comunidad. Sus creaciones representan animales de la zona, para ofrecer a los turistas que visitan a Pampa Michi. ¿Cuántos productos elaboraron para vender?

llaveros

portalapiceros

pulseras

bolsas

2. Responde:

¿Qué productos elaboran la familia?

¿Qué nos pide resolver en el problema?

3. Resuelvo el problema :

a) Pinta un por cada artesanía que elaboró la familia de Carlos y Adriana.

LIVEWORKSHEETS

pulseras

llaveros

portalapiceros

bolsas



4. Representa gráficamente la cantidad de artesanía . Une con una línea.

pulseras

portalapiceros

bolsas

llaveros



5. Colorea en la regleta la cantidad de artesanías.

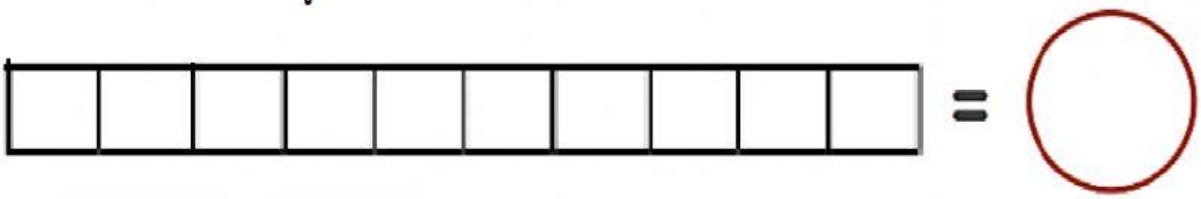

pulseras | llaveros | bolsas | portalapiceros | total

LIVEWORKSHEETS

3 + ◯ + ◯ + ◯ = ◯

Total

¿Cuántos productos elaboraron para vender? Escribe

En total elaboraron _____ productos.

6. Escribe tus respuestas

¿Cuál es el producto que **más** elaboraron?

¿Cuál es el producto que elaboraron **menos**?

LIVEWORKSHEETS