EJERCICIOS DE FRACCIONES

1.-UNIR CON LINEAS LAS FRACCIONES CON SUS NOMBRES;

PROPIAS	IMPROPIAS	DECIMALES
$\frac{5}{6}$	$\frac{4}{2}$	$\frac{3}{10}$

2.- Escribe o representa fracciones según lo indica:

Si al grafico le quitamos 1 porción cuanto queda	—
Si al grafico le quitamos2 porciones cuanto queda 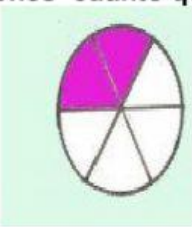	—
Si al grafico le quitamos4 porciones cuanto queda 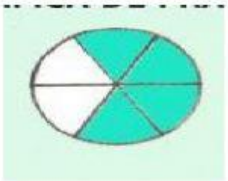	—
Si al grafico le quitamos4 porciones cuanto queda 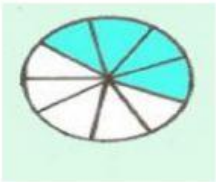	—

LIVEWORKSHEETS

3. Realizamos las siguientes sumas o restas de fracciones y reconocemos su clasificación

a) $\frac{1}{5}+\frac{2}{3}=$ $\frac{\quad}{\quad}$

b) $\frac{3}{4}+\frac{6}{9}=$ $\frac{\quad}{\quad}$

c) $\frac{10}{6}-\frac{2}{4}=$ $\frac{\quad}{\quad}$

d) $\frac{2}{8}-\frac{1}{6}=$ $\frac{\quad}{\quad}$

e) $\frac{8}{12}+\frac{6}{8}+\frac{1}{2}=$ $\frac{\quad}{\quad}$

f) $\frac{3}{9}+\frac{12}{18}+\frac{1}{3}=$ $\frac{\quad}{\quad}$

f) $\frac{100}{75}-\frac{27}{108}=$ $\frac{\quad}{\quad}$

g) $\frac{48}{20}-\frac{30}{24}=$ $\frac{\quad}{\quad}$

LIVEWORKSHEETS