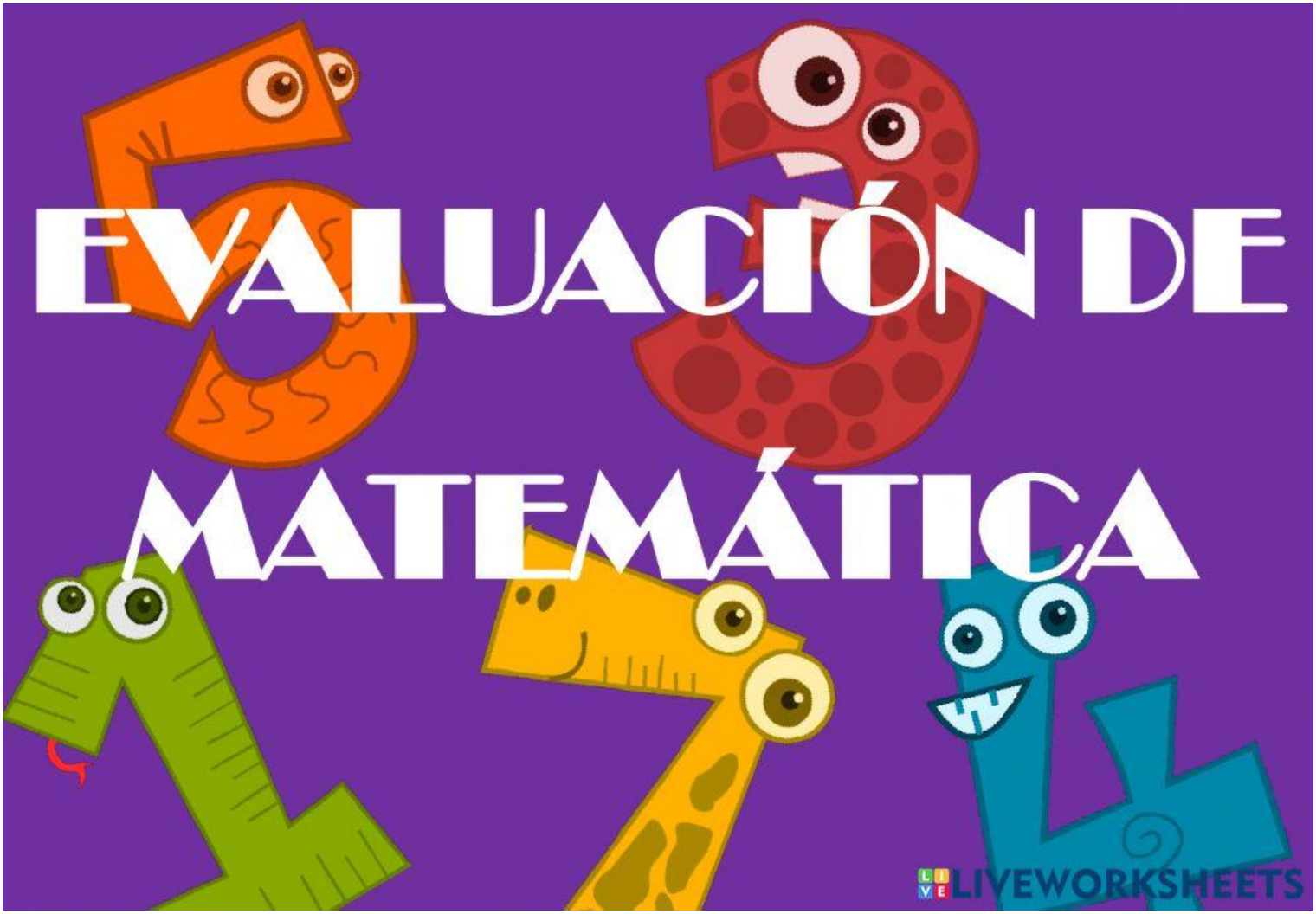
EVALUACIÓN DE
MATEMÁTICA
LIVEWORKSHEETS

¿Cuál es el mayor número que se puede formar con estos tres dados?

Escribo su nombre:

LIVEWORKSHEETS

2 ¿Cuál es el menor número que se puede formar con estos tres dados?

Escribo su nombre:

LIVEWORKSHEETS

3 En esta recta numérica se pueden representar los números ordenados del 100 al 200.

A Selecciona el número ciento treinta.

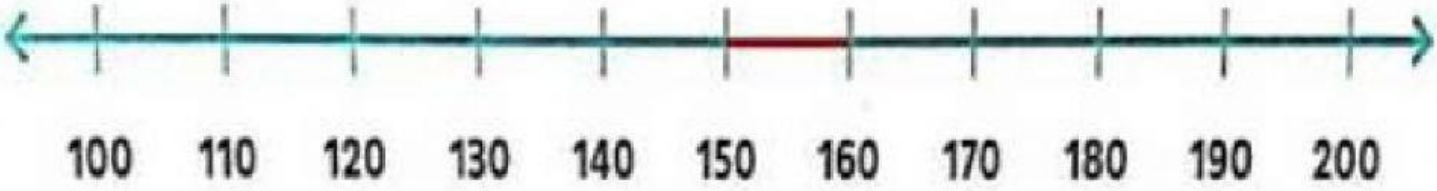

LIVEWORKSHEETS

B ¿Dónde iría en la recta, aproximadamente, el número: 159?

C ¿y el 185?



LIVEWORKSHEETS

¿Es cierto que el número ciento cuarenta y dos va entre el 140 y el 150?

¿Cuál de estos números es el…

♥ Cuatrocientos veintiocho → **40028 - 428 – 482**

♥ Seiscientos treinta y nueve → **693 - 600309 – 639**

♥ Ochocientos ocho → **8008 - 880 – 808**

LIVEWORKSHEETS

Ordeno de menor a mayor:

459 - 549 - 808 - 880 - 901 - 109

Escribí los resultados de estos cálculos.

SUMAR Y RESTAR 10	SUMAS DE "DIECES" IGUALES	SUMAS DE "CIENES" IGUALES
80 + 10 =	30 + 30 =	300 + 300 =
49 - 10 =	20 + 20 =	200 + 200 =

LIVEWORKSHEETS

Completa el siguiente cuadro.

CIEN MENOS	NÚMERO	CIEN MÁS
	409	
	564	
	823	

LIVEWORKSHEETS