A) Pilih jawapan yang betul

1 490 dalam perkataan ialah

A Empat sembilan sifar

B Empat ratus sembilan

C Empat ratus sembilan puluh

D Empat ratus sembilan puluh sa

2 Rajah di bawah menunjukkan sekeping kad nombor.

8**7**2

Apakah nilai tempat bagi digit 7 pada kad nombor itu **?**

A sa

B puluh

C ratus

D ribu

3 Rajah di bawah menunjukkan empat keping kad nombor.

706	607	760	670

Susunkan nombor-nombor pada kad itu dalam turutan menaik

A 760, 706, 607, 670

B 760, 706, 670, 607

C 670, 607, 706, 760

D 607, 670, 706, 760

LIVEWORKSHEETS

4 Cerakinkan bagi 742 mengikut nilai tempatnya ialah

A 7 ratus + 2 puluh + 4 sa

B 7 ratus + 4 puluh + 2 sa

C 2 ratus + 4 puluh + 7 sa

D 4 ratus + 2 puluh + 7 sa

5 205 dalam perkataan ialah

A Dua sifar lima

B Dua puluh lima

C Dua puluh lima sa

D Dua ratus lima

6 Manakah pecahan dua perempat bagi kawasan berwarna**?**

A

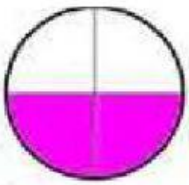

B

C

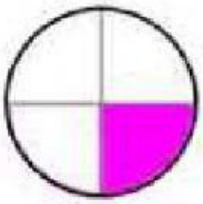

LIVEWORKSHEETS

7 Yang manakah ialah $\frac{3}{8}$?

A

B 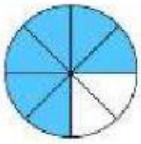

C 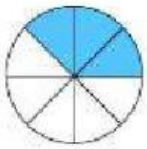

8 Apakah nombor yang diwakili oleh abakus di bawah ?

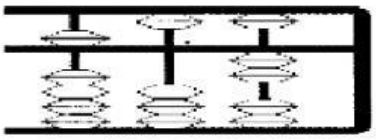

A 10 2

B 4 3 2

C 5 0 2

D 5 2 0

B) Lengkapkan rangkaian nombor di bawah.

1. 70,_____ , 90 , 100 , 110
2. 42 , 43 ,_____ , 45 , 46
3. 20, _____, 18, 17
4. 60, _____, 40, 30
5. 28 , 29, _____, 31, 32

LIVEWORKSHEETS

C) Pilih jawapan yang betul.

1.	Cari nombor yang tertinggal 11, 12 , __ ,14, 15	**13**	**17**	**18**
2.	3 ratus 6 puluh 1 sa	**316**	**360**	**361**
3.	Apakah nilai tempat bagi digit 2 dalam nombor 621 **?**	**sa**	**puluh**	**ratus**
4.	Bundarkan 23 kepada puluh terdekat.	**10**	**20**	**30**
5.	28 – 4 = ☐	**284**	**32**	**24**
6.	Empat ratus lima	**45**	**405**	**450**

D) Tambah dan tolak.

8 2	6 4	6 7	2 8
7 5	7 8	2 2	5 9

1) 5 6 + 3	2) 4 5 + 2 2	3) 6 6 + 1 2	4) 2 4 + 5 8
5) 7 9 - 4	6) 9 8 - 3 4	7) 8 6 - 6 4	8) 9 2 - 6 4

LIVEWORKSHEETS