GRAF MUDAH

1) Antara berikut, yang manakah bukan rangkaian? Tuliskan jawapan dalam petak yang disediakan.

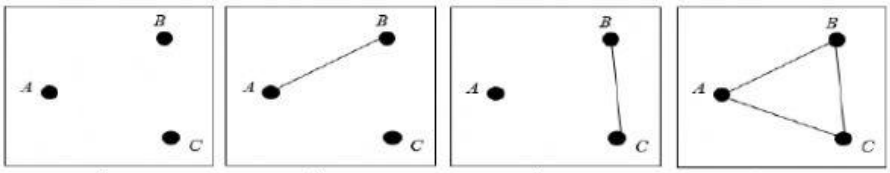

A B C D

2) Rajah menunjukkan suatu graf mudah. Lengkapkan jadual dengan menulis istilah yang betul .

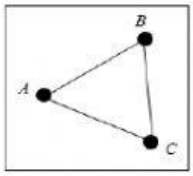

Perkara	Istilah
Titik A, B dan C	
Garis AB, BC dan AC	

3) Rajah menunjukkan suatu graf mudah.

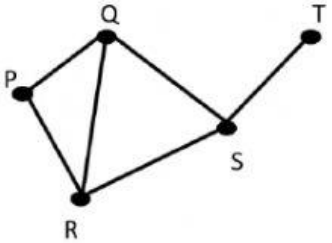

a) Lengkapkan tiap yang berikut:

i) V = { P, Q, ___ _, ____ , T}

ii) n(V) =

iii) E = {(P,Q), (P,R) , ____ _, __ ____, (R,S), (S,T)}

iv) n(E) =

v) Σd(v) =

b) Lengkapkan bilangan darjah bagi setiap bucu:

d(P) =

d(Q) =

d(R) =

d(S) =

d(T) =

Σd(v) =

LIVEWORKSHEETS