**REPÚBLICA BOLIVARIANA DE VENEZUELA**
**MINISTERIO DEL PODER POPULAR PARA LA EDUCACIÓN**
**UNIDAD EDUCATIVA EL POBLADO**
**4º Grado "A" y "B"**
**P.A: "Creando para Venezuela"**

## REFORZANDO LO APRENDIDO

# Matemática

***Tipos de rectas, figuras geométricas, triángulos y paralelogramos.***

**Luego de leer todo el cuestionario, Selecciona cuál de estos enunciados pertenece a la pregunta realizada: valor 2 punto c/u.**

**1.- La siguiente definición pertenece a:**

**"…es una sucesión infinita de puntos y se identifica con una letra mayúscula"**

a) Una recta

b) Una semirrecta

c) Un segmento

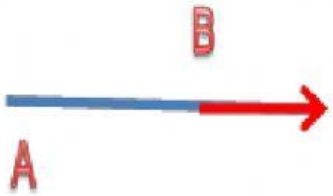


2.- El punto B representa:

a) Una recta

b) Un segmento

c) Una semirrecta

**3.- ¿Cuál es la definición correcta de segmento?**

a) "…es cuando trazamos cuarenta puntos sobre una recta, estableciendo dos límites. Es decir, tiene un final y se identifica con letras minuscula y una raya sobre ellas."

LIVEWORKSHEETS

b) "… es cuando trazamos un punto sobre una recta, estableciendo dos límites. Es decir, tiene un principio y un final y se identifica con letras mayúsculas y una raya sobre ellas."

c) "…es cuando trazamos dos puntos sobre una recta, estableciendo dos límites. Es decir, tiene un principio y un final y se identifica con letras minuscula y una raya sobre ellas."

**4.- ¿Cuál de las siguientes líneas forman rectas secantes?**

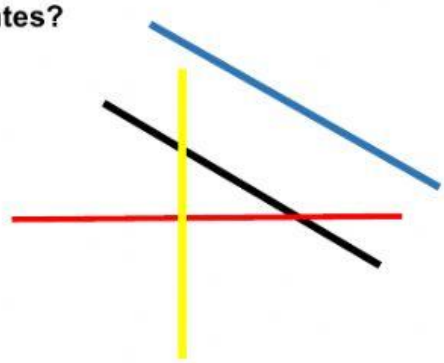

a) La roja con la azul y la amarilla con la roja

b) La azul con la negra y la amarilla con la azul

c) La negra con la amarilla y la roja con la negra

**5.- Las figuras geométricas están formadas por:**

a) Rectas, puntos y flechas

b) Lados, vértices y ángulos

c) Ángulos, puntos y rectas

**6.- De acuerdo a la cantidad de lados, los Polígonos se clasifican en:**

a) Octágonos, regulares, convexos, cóncavos e irregulares.

b) Heptágono, hexágono, cóncavos, cuadrilátero y paralelogramos

c) Triángulo, cuadrilátero, pentágono, hexágono, heptágono y octágono

**7.- ¿Cuáles son los nombres de los siguientes polígonos?**

a) Romboide, Hexágono, Triángulo

b) Decágono, Pentágono, Rombo

c) Octágono, Trapezoide, Romboide

LIVEWORKSHEETS

**8.- ¿Cuál de los siguientes triángulos es isósceles?**

a) Azul

b) Verde

c) Amarillo

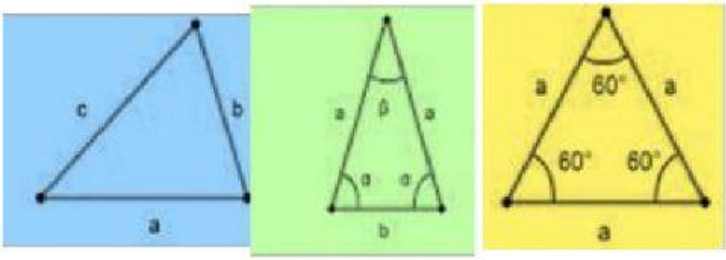


**8.- Si trazo un Triángulo *ABC*, cuyos lados miden: *AB*= 7cm, *BC*= 3 cm y *BC*= 5cm. ¿Qué clase de triángulo se ha construido?**

a) Escaleno

b) Isósceles

c) Equilátero

**9.- ¿Cuál es el nombre del paralelogramo que tiene cuatro ángulos rectos y cuatro lados de igual longitud?**

a) Rectángulo

b) Romboide

c) Cuadrado

**10.- ¿En qué se caracterizan los paralelogramos?**

a) Tienen rectas secantes y tienen tres lados

b) Tienen rectas paralelas y tienen cuatro lados

c) Tienen rectas perpendiculares y tienen cinco lados

LIVEWORKSHEETS