2.º Ano

Nome: _____

Números até ao 500

1- Liga cada número à sua leitura.

397	duzentas e cinquenta e oito unidades
153	cento e cinquenta e três unidades
185	trezentas e noventa e sete unidades
258	cento e oitenta e cinco unidades

2- Qual é o valor do algarismo **4** em cada um dos seguintes números? Por exemplo, no número **347** o valor do algarismo 4 é **<u>4 dezenas</u>** ou **<u>40 unidades</u>** ou **<u>40</u>**.

a) No número **294**, o valor do algarismo **4** é ..... .

b) No número **438**, o valor do algarismo **4** é ..... .

c) No número **143**, o valor do algarismo **4** é ..... .

3- Completa.

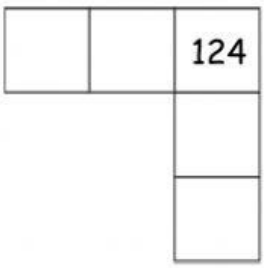

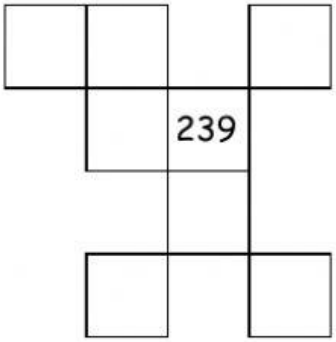

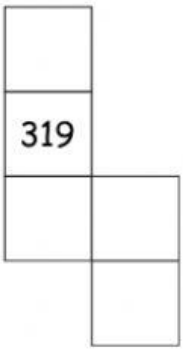

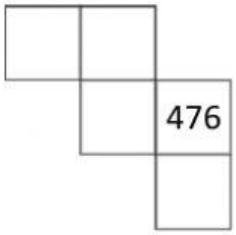

LIVEWORKSHEETS