TRABAJO INTEGRADOR REINO PROTISTA



INTEGRANTES:

FERREIRA SANDRA

GÓMEZ GLADY

SORIA ANALIA

CALDERÓN DIEGO

LIVEWORKSHEETS

ACTIVIDADES:

1) MARCAR LA OPCIÓN INCORRECTA ARRASTRANDO UNA TILDE O UNA X EN LOS CUADROS Y LUEGO JUSTIFICAR DEBAJO

LOS PROTISTAS SON:

A) EUCARIOTAS Y MUY DIVERSOS X
B) SON BACTERIAS, HONGOS, PLANTAS Y ANIMALES ☑
C) UNICELULARES Y PLURICELULARES ☑
D) AUTÓTROFOS Y HETERÓTROFOS ☑
X
X

2) SELECCIONAR VERDADERO O FALSO SEGÚN CORRESPONDA EN CADA CASO

- LOS PROTISTAS PUEDEN VIVIR EN AGUA SALADA, AGUA DULCE Y EN LOS LIQUIDOS CORPORALES DE OTROS ORGANISMOS
- LOS PROTISTAS PLURICELULARES TIENEN SUS CÉLULAS ASOCIADAS Y FORMAN TEJIDOS
- SON CÉLULAS SIN ESPECIALIZAR Y PUEDEN REALIZAR CUALQUIER FUNCIÓN
- LAS ALGAS Y LOS PROTAZOOS PERTENCEN A ESTE REINO PROTISTA

LIVEWORKSHEETS

3) LEÉ EL PARRAFO QUE APARECE ABAJO Y COMPLETA CON LAS PALABRAS QUE FALTAN SEGÚN LA OPCIÓN QUE CORRESPONDA.UNA DE LAS DOS PALABRAS EN PARENTESIS ES LA CORRECTA.

LOS PROTOZOOS SE PUEDEN REPRODUCIR DE FORMA ASEXUAL O SEXUAL.

LOS PROTISTAS FOTOSINTETICOS PUEDEN SUMINISTRAR _____ (OXIGENO/METANO), A LOS ECOSISTEMAS ACUATICOS Y TERRESTRES.

SON LAS MÁS LARGAS YMÁS COMPLEJAS DE TODAS LAS ALGAS CONOCIDAS COMO _____ (PARDAS/DORADAS) CONOCIDAS COMUNMENTE COMO MACROALGAS TODAS SON MULTICELULARES Y VARIAN EN TAMAÑOS DE ALGUNOS CENTIMETROS

HABIENDO CONTACTO DIRECTO ENTRE DOS ORGANISMOS CON INTERCAMBIOS DE DOS NÚCLEOS _____ (DIPLOIDES/HAPLOIDES)

SI LA REPRODUCCIÓN ES _____ (SEXUAL/ASEXUAL) SE DENOMINA _____ (FISIÓN BINARIA/CONJUGACIÓN) Y ORIGINA DOS CÉLULAS HIJAS

LIVEWORKSHEETS

4) SELECCIONAR DE LA LISTA, LAS ESTRUCTURAS DEL PARAMECIO Y COLOCAR DONDE CORRESPONDA.

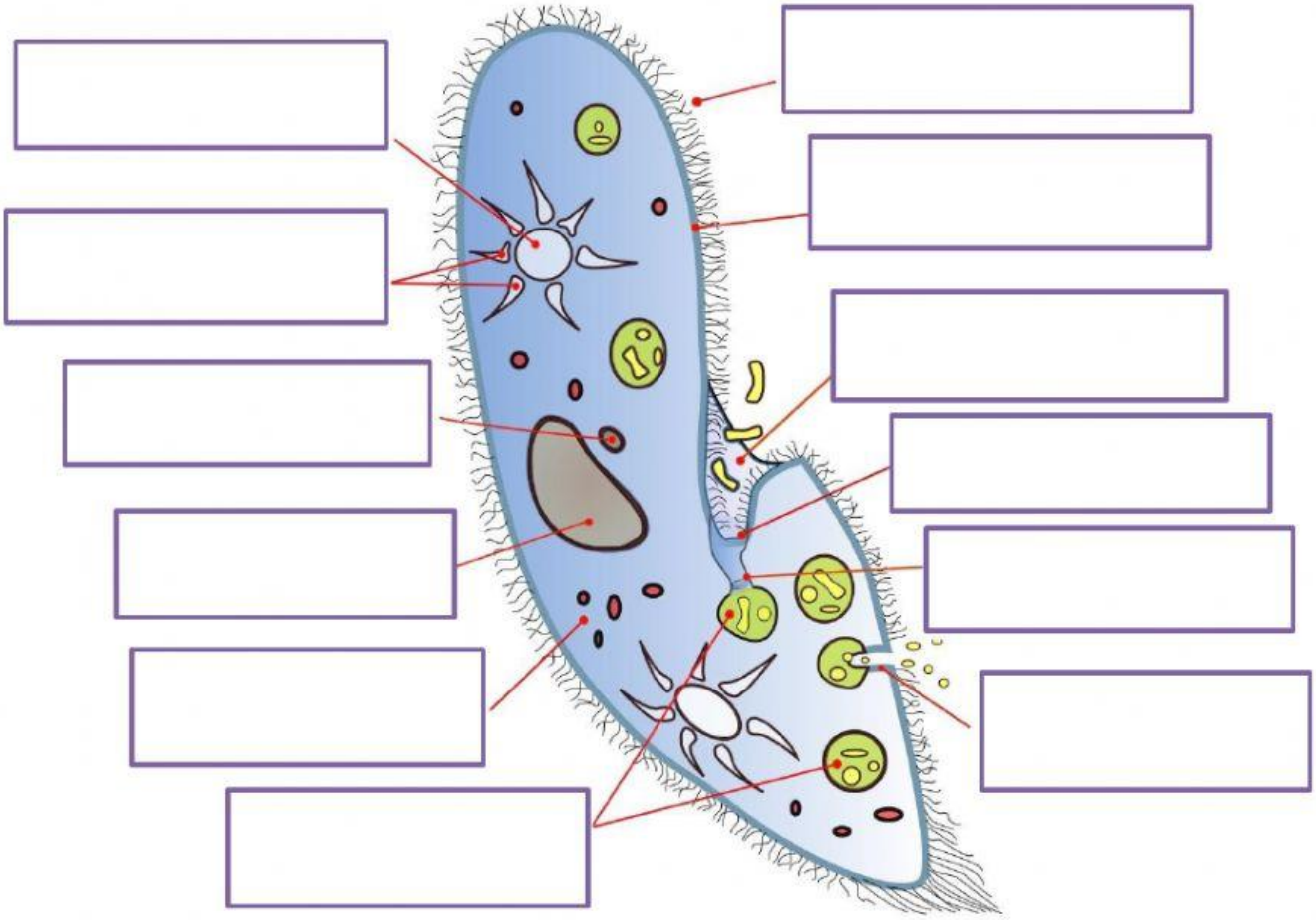

VACUOLA CONTRACTIL	SURCO ORAL	CITOPLASMA
APERTURA BUCAL	MICRONÚCLEO	CANALES RADIALES
VACUOLAS DE ALIMENTOS	MEMBRANA	BOCA CELULAR
MACRONÚCLEO	PORO ANAL	CILIOS

LIVEWORKSHEETS

VEAN EL SIGUIENTE VIDEO SOBRE LAS AMEBAS Y LUEGO CON LA INFO OBTENIDA REALICEN LA ACTIVIDAD.

PUEDEN INGRESAR AL SIGUIENTE LINK EN BUSCA DE MÁS INFORMACIÓN.

https://www.ozono21.com/blog/bacterias/amebas-infeccion-por-amebas/

LIVEWORKSHEETS

5) RELACIONE LAS SIGUIENTES DEFINICIONES Y UNIR A LAS IMÁGENES CORRESPONDIENTES.

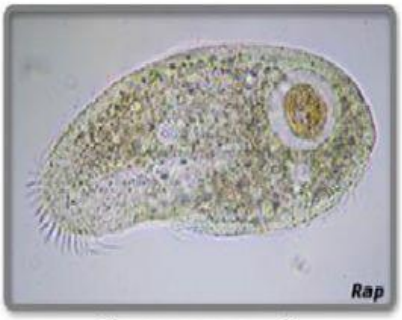

Trypanosoma cruzi.
Parásito

Poseen células parecidas a las vegetales, ya que presentan cloroplastos y pared celular, la mayoría son unicelulares y constituyen el fitoplancton), todas sus células presentan la misma apariencia y desempeñan las mismas funciones, según el pigmento que posean se pueden clasificar en: verdes, pardas y rojas,

Tienen estructuras similares a cabellos minúsculos llamados cilios que crecen de sus superficies. Los cilios los impulsan a través del agua y capturan alimentos al dar una bocanada en una ranura similar a una boca en la superficie de la membrana.

Son organismos microscópicos, unicelulares y heterótrofos,

Se alimentan de bacterias, restos de organismos y otros organismos microscópicos, viven en medios acuáticos,

la mayoría son de vida libre, pero existen algunos parásitos,

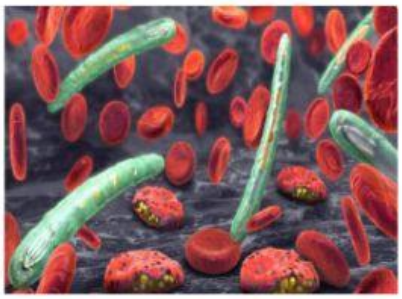

Un género de protistas parásitos del cual se conocen hasta 175 especies, que se transmiten a huéspedes vertebrados mediante la picadura de un mosquito infectado. Es el causante de la enfermedad conocida como malaria o paludismo.

LIVEWORKSHEETS