EXAMEN MATEMATICAS 2° GRADO
PARCIAL 3º TRIMESTRE

Nombre del alumno:_____.

I. Resuelve las siguientes multiplicaciones. Recuerda poner arriba en los espacios en blanco el número que llevas. (5 pts)

C	D	U
8	5	7
	×	5

C	D	U
7	5	9
	×	2

C	D	U
3	2	5
	×	4

C	D	U
3	2	3
	×	6

C	D	U
5	5	4
	×	7

II. Completa la siguiente serie numérica. (1 pto)

5000		5020	5030	

	850	855		865

LIVEWORKSHEETS

III. Escribe como se leen las siguientes fracciones. (5 pts)

1.

2.

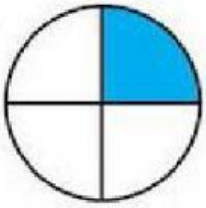

3.

4.

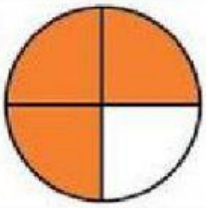

5.

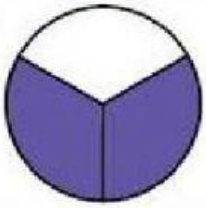

LIVEWORKSHEETS

IV. Une las sumas y restas de fracciones con su resultado. (3 pts)

$$\frac{7}{4} - \frac{3}{4} =$$

$$\frac{5}{7} - \frac{4}{7} =$$

$$\frac{3}{5} + \frac{1}{5} =$$

$$\frac{4}{5}$$

$$\frac{4}{4}$$

$$\frac{1}{7}$$

V. Lee, selecciona la operación que tienes que realizar y resuelve el siguiente problema razonado. (1 pto)

1. Durante el año, el papa de Raúl realizo 149 llamadas telefónicas más que Raúl. Si Raúl realizo 52 llamadas. ¿Cuántas llamadas realizo su papa?

¿Qué operación tienes que realizar?

Suma Resta

C	D	U

El papá de Raúl realizo_____

LIVEWORKSHEETS