ACTIVITAT 1 | CÀLCUL IMMEDIAT

Completa les operacions següents:

a. 9 x 7 = _____ 0-1 a

b. 54 : 6 = _____ 0-1 b

c. 34 + 27 = _____ 0-1 c

d. 8^2 = _____ 0-1 d

e. 16 x 3 = _____ 0-1 e

f. 60 : 5 = _____ 0-1 f

g. 32 - 15 = _____ 0-1 g

Marca amb una X el requadre que té l'opció correcta:

h. 3^2 és més gran que 2^3

- ☐ Sí
- ☐ No

0-1 h

LIVEWORKSHEETS

ACTIVITAT 2 | PROBLEMES DE CÀLCUL

Resol els problemes següents i escriu la resposta al damunt de la ratlla.

a. **En una capsa hi caben 12 formatgets. Quants n'hi haurà en 3 capses?**

0-1 i

_____

b. **Si a cada calaix hi caben 9 llibres, quants calaixos necessites per col·locar 36 llibres?**

0-1 j

_____

c. **Si mig metre de cable val 3 euros, quants euros valdrà un metre i mig de cable?**

0-1 k

_____

d. **Un llibre costa 8 euros. Si has pagat amb un bitllet de 20 euros, quants euros et tornaran de canvi?**

0-1 l

_____

LIVEWORKSHEETS

ACTIVITAT 3 | ETIQUETES I MESURES

Les etiquetes següents corresponen a dades d'alçada i pes de les persones i de capacitat de la banyera.
Observa-les amb atenció.

0,50 m | 9 kg | 300 cm
0,33 l | 38 kg | 1,68 m
12 l | 800 g | 130 l

Escriu la mesura corresponent a l'etiqueta que et sembla més correcta en cada cas.

Pes del bebè _____

Capacitat de la banyera _____

Alçada de la dona _____

0-1 P

0-1 C

0-1 A

LIVEWORKSHEETS

ACTIVITAT 4 | SEQÜÈNCIES

Troba els valors que falten dins de la sèrie.

EXEMPLE

Quin nombre escriuries a continuació? **3, 7, 11, _____**

Com que 15 és la solució, l'has d'escriure al damunt de la ratlla. **3, 7, 11, 15**

a. Quin nombre escriuries a continuació?

0-1 m

10 14 18 _____

b. Quin nombre escriuries a la segona posició?

0-1 n

Primera posició	Segona posició	Tercera posició	Quarta posició
320	_____	**260**	**230**

c. Troba el nombre decimal que ve a continuació:

0-1 o

14,7 14,3 13,9 _____

d. Escriu el nombre de quadrets que hi haurà a la quarta posició. Si vols, pots ajudar-te fent el dibuix que hi falta.

0-1 p

Primera posició	Segona posició	Tercera posició	Quarta posició
			
16	**8**	**4**	_____

LIVEWORKSHEETS

ACTIVITAT 4 | SEQÜÈNCIES

e. Els quadrets contenen monedes que segueixen una sèrie. Dibuixa les monedes que hi haurà al segon quadret.

Primer quadret	Segon quadret	Tercer quadret	Quart quadret

0-1
q

LIVEWORKSHEETS

ACTIVITAT 5 | COMPLETA OPERACIONS

Escriu damunt de la ratlla els nombres que completen les igualtats següents:

EXEMPLE

_____ + 0,85 = 1

Com que 0,15 és la solució,
l'has d'escriure al damunt de la ratlla.

0,15 + 0,85 = 1

0-1 r

a. _____ + 0,55 = 1

0-1 s

b. 1 - _____ = 0,70

0-1 t

c. 0,42 x _____ = 420

0-1 u

d. _____ : 10 = 2,7

LIVEWORKSHEETS

ACTIVITAT 6 | PORTÀTILS

L'escola vol comprar 9 portàtils. El preu de cada portàtil és de 310 euros.

a. Quants euros costaran els 9 portàtils?

Fes les operacions aquí	**Resposta**

0-1-2
v

Si es compren els mateixos portàtils a través d'Internet, trobem l'oferta següent:

b. Si s'aprofita aquesta oferta, quants euros costaran els 9 portàtils?

Fes les operacions aquí	**Resposta**

0-1-2
w

LIVEWORKSHEETS

ACTIVITAT 7 | RECORREGUT MARCAT

Imagina't que has de fer el recorregut següent:

EXEMPLE

Calcula la distància que has de recórrer quan fas una volta sencera.

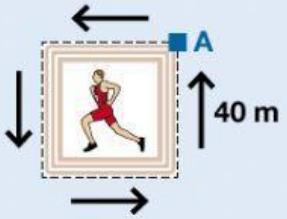

Escriu una X dins del requadre que té la xifra correcta.

1.600 cm	80 m	160 m	120 cm
☐	☐	X	☐

Imagina que comences a caminar des del punt A i que segueixes el recorregut marcat per les fletxes.

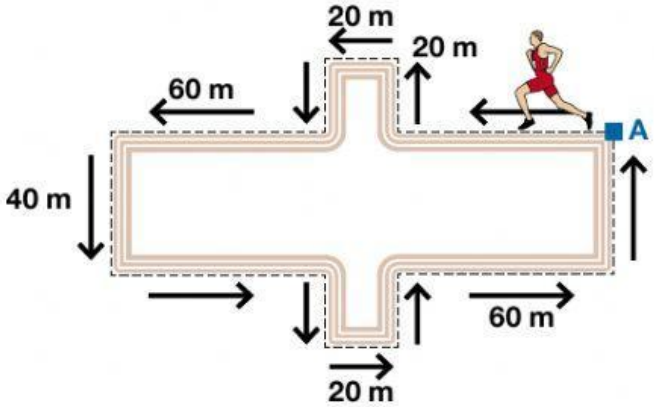

a. **Calcula la distància que has de recórrer quan fas una volta sencera. Escriu una X dins del requadre que té la xifra correcta.**

4.400 cm	220 m	440 m	1.200 cm
☐	☐	☐	☐

0-1 ☐ x

b. **L'ombra d'un arbre té 236 cm de llargada. Escriu aquesta quantitat en metres.**

_____ m

0-1 ☐ y

LIVEWORKSHEETS

ACTIVITAT 8 | NEVERES

En Joan ha comprat una nevera que costa 400 euros.
Per transportar-la al seu domicili, la botiga li ha cobrat un 8% sobre el preu de venda de la nevera.

a. Quant ha costat el transport de la nevera a casa d'en Joan?

Fes les operacions aquí	**Resposta**

0-1-2
z

b. La botiga té, en total, 20 neveres. Si avui n'ha venut la quarta part, quantes neveres queden per vendre?

Fes les operacions aquí	**Resposta**

0-1-2
aa

LIVEWORKSHEETS