COLEGIO SANTO TOMAS MORO
BIMESTRAL GRADO PRIMERO
PERIODO II
CIENCIAS SOCIALES

Bimestral grado 1

1. ¿Qué significa la palabra procedencia?

   A. Son una herramienta visual para ordenar y explicar un acontecimientos
   B. La historia familiar de una familia, la nacionalidad y condiciones de vida de sus descendientes.
   C. Es una edificación cuya principal función es ofrecer refugio **y** habitación a las personas
   D. Ninguna de las anteriores

2. Une con una línea la acción de cada personaje con su espacio en la vivienda

Relaciona



Imágenes Educativas.com

3. En la ciudad o sector urbano se pueden observar dos tipos de vivienda que son:

   A. Campestres y apartamentos
   B. Haciendas y casas
   C. Casas y apartamentos
   D. Ninguna de las anteriores

LIVEWORKSHEETS

4. La hacienda agrícola, hacienda ganadera y casa campestre hacen parte de las viviendas:

A. Campo o rural
B. Ciudad o urbana
C. Ciudad y campo
D. Ninguna de las anteriores

5. Escribe en los espacios los nombres de cada tipo de vivienda

6. Une con una línea cada imagen con su respectivo significado

LIVEWORKSHEETS

- no manipular sustancias toxica
- no caminar descalzo sobre pisos húmedos
- No introducir objetos en los tomacorrientes
- no acercarse a la estufa cuando está encendida

7. Escribe en cada recuadro las dependencias que hacen parte del colegio

8. Enumera cada personaje del colegio con sus funciones

LIVEWORKSHEETS

9. ¿Qué suceso hace falta en la línea de tiempo de Camila?

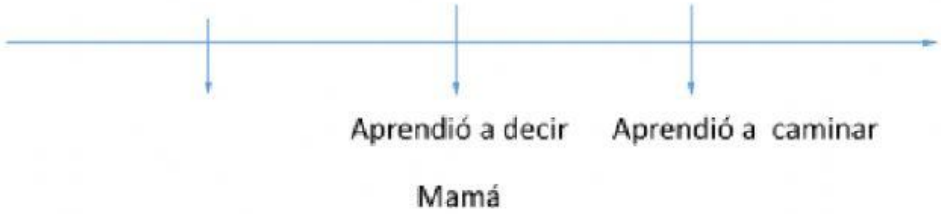

LIVEWORKSHEETS

A. Aprendió a decir papa
B. Aprendió a amarrarse los zapatos
C. Nació Camila
D. Aprendió a cepillarse
E. Ninguna de las anteriores

10. Escribe el punto cardinal de cada objeto

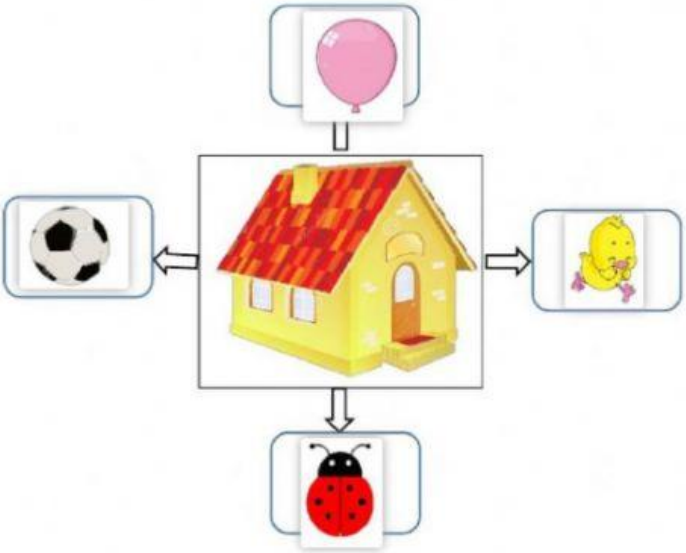

El globo esta hacia el _____

El pollito esta hacia el _____

La mariquita esta hacia el _____

El balón esta hacia el _____

LIVEWORKSHEETS