Nombre: Grado: 3ª- 3b

LECTURA Y ESCRITURA DE NÚMEROS DE 5 CIFRAS

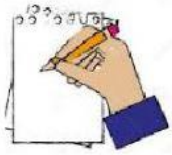

1. Escribe cómo se lee cada valor de tiquete:

22 238 = _____

66 989 = _____

99 001 = _____

2. Completa la secuencia con los valores de trasporte que hay desde el terminal de Ibagué a diferentes municipios del Tolima.

Municipio	Valor del transporte
Espinal	10.000
Melgar	17.000
Prado	25.000
Cajamarca	8.000
murillo	12.000
Alvarado	7.500
Chaparral	35.000



3. Relaciona con un número, cada lectura de tiquetes con su respectiva cantidad .

1	doce mil quinientos setenta y cuatro	( )	90.620
2	sesenta mil setecientos setenta y cinco	( )	12.564
3	ochenta y siete mil quinientos nueve	( )	60.775
4	noventa mil seiscientos veinte	( )	87509

4. Resuelvo el siguiente problema.

En el terminal de trasporte en Ibagué, se venden 35.000 tiquetes de trasporte mensual.

a. ¿Cuántos tiquetes se venderían en 2 meses? _____

b. ¿Cuántos se venderían en 4 meses? _____

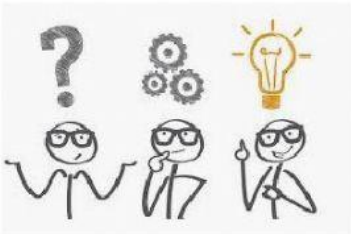

LIVEWORKSHEETS