REFUERZO SEMESTRAL

CIENCIAS 3°

1. Relaciona con una línea la función con su respectiva acción

Crecimiento	asustarse y tratar de escapar
Reproducción	un águila atrapa un ratón para comérselo
Nutrición	un árbol da frutos
Movimiento	el niño registra su nueva estatura

2. Relaciona con una línea cada función vital con su imagen

Función de relación

Función de reproducción

Función de nutrición

3. Completa escribiendo las etapas de desarrollo del ser humano

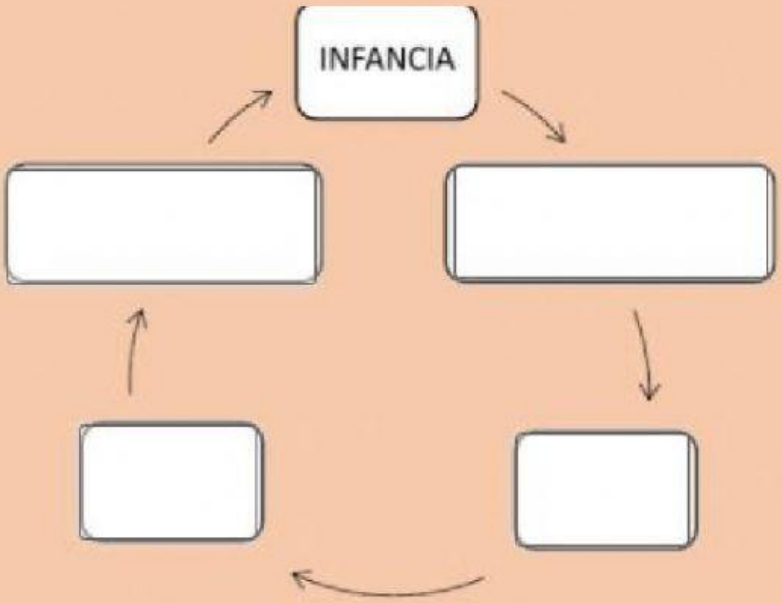

4. Relaciona los seres vivos con el reino al que pertenecen

LIVEWORKSHEETS

Cabra	protista
Champiñón	mónera
Pino	animal
Bacteria	vegetal
Alga	hongo

5. Observa las imágenes y selecciona sin son árboles, arbustos o hierbas



6. Completa las frases teniendo en cuenta las partes de las plantas (raíz, hojas, tallo, flor)

- Se encarga de la respiración y la realización de alimento de las plantas _____
- El _____ da sostén a las hojas, flores y frutos
- La _____ se encarga de la absorción de los nutrientes y agua del suelo
- Esta parte es la parte reproductora de la planta _____

7. Enumera las etapas del crecimiento de una planta

_____Nace una flor

LIVEWORKSHEETS

_____Surge la raíz

_____Se siembra la semilla

_____Crece el tallo

_____Se forma el fruto

8. completa el siguiente mapa conceptual arrastrando los términos hasta su posición correcta

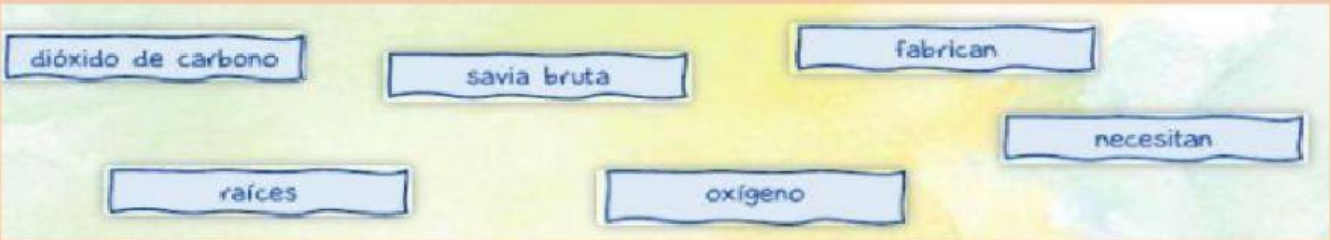

LIVEWORKSHEETS

9. completa la siguiente imagen, debes tener en cuenta el mapa conceptual realizado

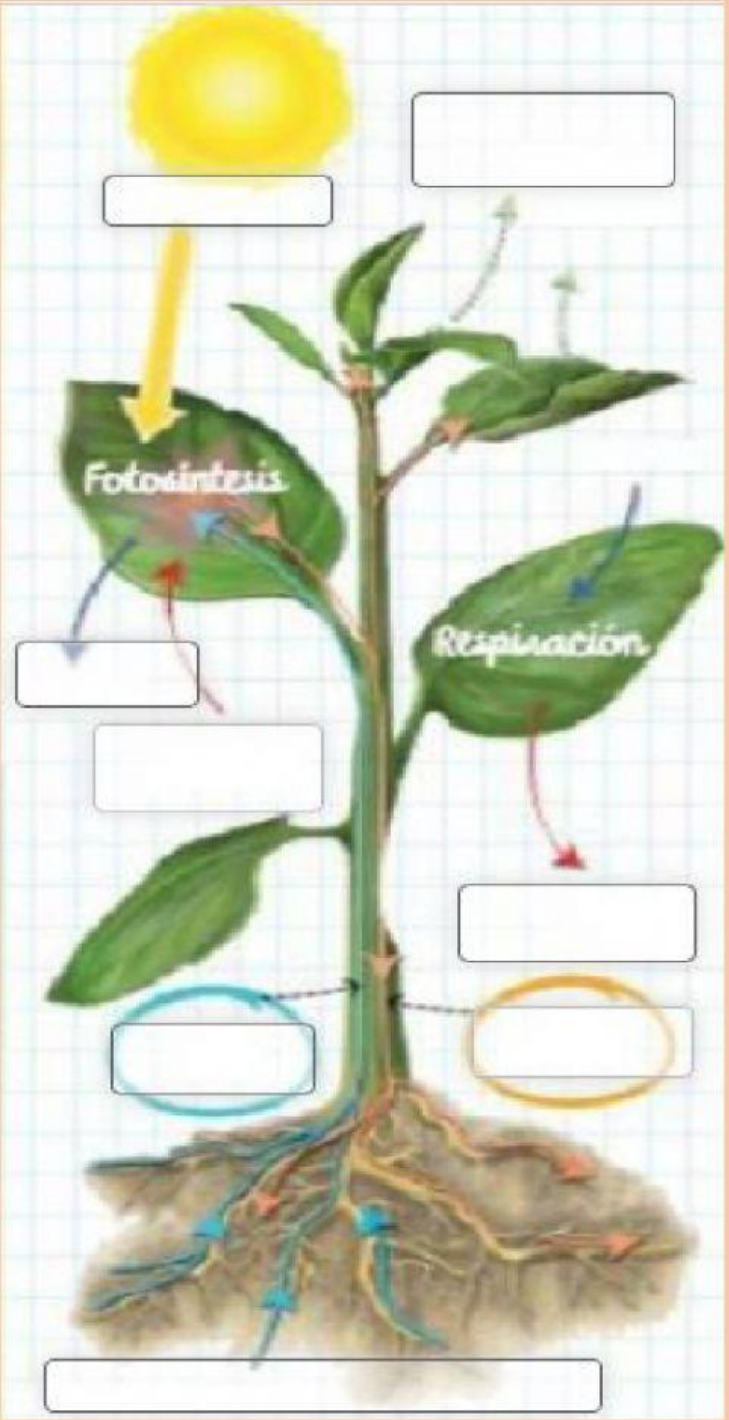

LIVEWORKSHEETS

10. Arrastra las partes de la flor a donde corresponda



pétalo sépalo pistilo óvulo estambres

LIVEWORKSHEETS