**1.Escribe como se llama.**

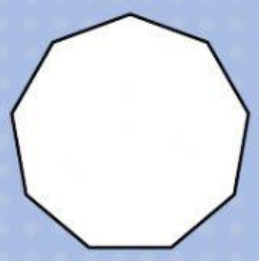

_____ _____ _____ _____

**2.Escribe como se llama cada parte del polígono.**

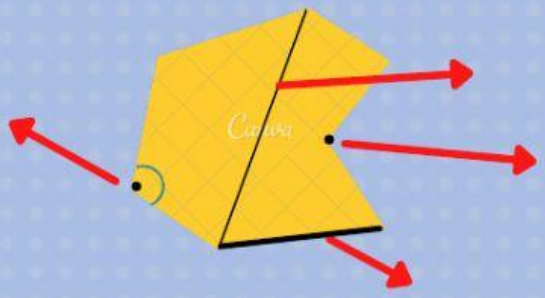

**3.¿Cuántas diagonales tiene este polígono? Luego, escribe su nombre.**

- Tiene _____ diagonales.
- Su nombre es: _____

**4.Clasifica estos triángulos según sus lados y ángulos.**

_____ _____ _____ _____

_____ _____ _____ _____

LIVEWORKSHEETS

**5.Relaciona.**



ROMBO TRAPEZOIDE RECTÁNGULO TRAPECIO CUADRADO ROMBOIDE

**6.¿Cuál es su perímetro?**

**6.¿Cuál es su perímetro?**

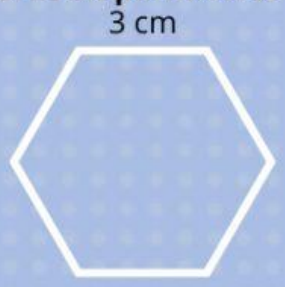


Su perímetro es: _____

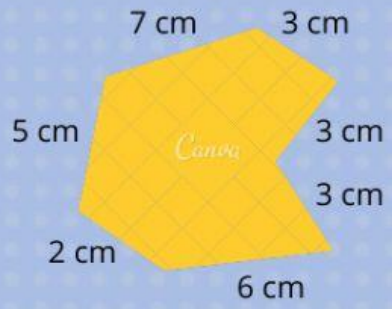


Su perímetro es: _____

**7.Escribe sus partes.**

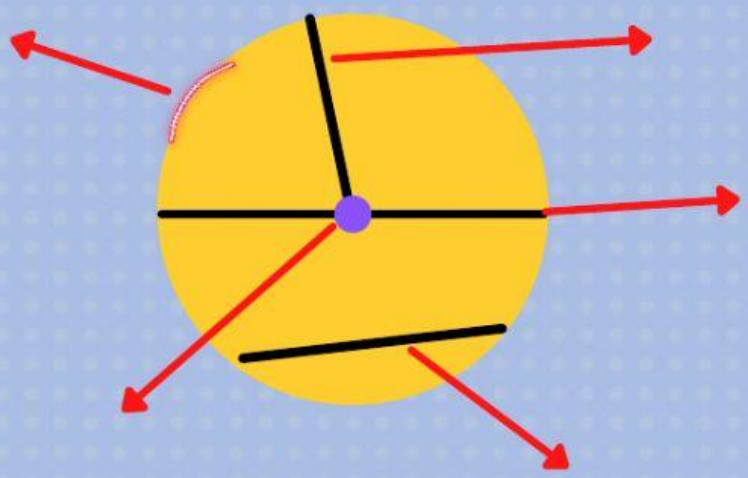

LIVEWORKSHEETS