សាលារៀនគ្រូយើង ប្រឡងត្រីមាសទី III ចំណេះដឹងទូទៅភាសាខ្មែរ ថ្នាក់ទី: ២ (.....)

ឈ្មោះ និងហត្ថលេខាអនុរក្ស : ..... លេខបន្ទប់: ..... លេខតុ .....

ឈ្មោះ និងហត្ថលេខាអ្នកកែ : ..... មណ្ឌលប្រឡង : .....

ឈ្មោះ និងហត្ថលេខាអ្នកត្រួតពិនិត្យ : ..... សម័យប្រឡង : .....

នាមត្រកូល និងនាមខ្លួន :.....

វិញ្ញាសា : គណិតវិទ្យា រយៈពេល : ៦០ នាទី ពិន្ទុ : ១០

I. **ចូរកូនគូស ✓ ក្នុង ☐ ណាដែលជាចម្លើយត្រឹមត្រូវ៖**

1. ៥០

ក. ☐ ប្រាំ ខ. ☐ សែសិប

គ. ☐ ហាសិប ឃ. ☐ ហុកសិប

2. មួយរយប្រាំពីរ

ក. ☐ ១០២ ខ. ☐ ១០៥

គ. ☐ ១០៧ ឃ. ☐ ១០០ + ៧

3. ១០១

ក. ☐ ដប់ ខ. ☐ ដប់មួយ

គ. ☐ ដប់ និងមួយ ឃ. ☐ មួយរយមួយ

4. ចំនួន (3 7 11 15) ហៅថា

ក. ☐ ការអានលេខ ខ. ☐ ចំនួនសេស

គ. ☐ ចំនួនគូ ឃ. ☐ ខ្ទង់ដប់

5. ចូរគូស ✓ ក្នុង ☐ ចម្លើយ ត្រូវ ឬ ខុស

ក. 32 < 33	☐ ត្រូវ	☐ ខុស
ខ. 35 > 35	☐ ត្រូវ	☐ ខុស
គ. 779 = 797	☐ ត្រូវ	☐ ខុស
ឃ. 879 < 897	☐ ត្រូវ	☐ ខុស

6. ចំនួន (4 8 14 20) ហៅថា

ក. ☐ ការអានលេខ ខ. ☐ ចំនួនសេស

គ. ☐ ខ្ទង់ដប់ ឃ. ☐ ចំនួនគូ

LIVEWORKSHEETS

II. **តម្លៃលេខដែលគូសពីក្រោម គឺជាតម្លៃលេខដែលស្ថិតនៅខ្នង់**

$\underline{\text{៩}} + ១០ + ១០០ = ១១៩$

ក. ☐ ខ្នង់រយ ខ. ☐ ខ្នង់ដប់ គ. ☐ ខ្នង់រាយ

$\text{៧} + \underline{\text{១០}} + ١٠٠ = ١١٧$

ក. ☐ ខ្នង់រាយ ខ. ☐ ខ្នង់ដប់ គ. ☐ ខ្នង់រយ

III. **ចូរកូនសរសេរចំនួន និងពាក្យអានចំនួន តាមលំនាំខាងក្រោម**

១០០	៩០		៧០		៥០			២០	១០
មួយរយ	កៅសិប		ចិតសិប		ហាសិប	សែសិប		ម្ភៃ	ដប់

IV. **ចូរកូនបង្គត់ចំនួនខាងក្រោមត្រឹមខ្នង់ដប់**

ក - បង្គត់ 11 ត្រឹមខ្នង់ដប់គឺ

ក. ☐ 9 ខ. ☐ 10 គ. ☐ 11 ឃ. ☐ 20

ខ - បង្គត់ 27 ត្រឹមខ្នង់ដប់គឺ

ក. ☐ 20 ខ. ☐ 26 គ. ☐ 28 ឃ. ☐ 30

គ . 21 បង្គត់ទៅ 20

ឃ . 13 បង្គត់ទៅ .....

ង . 16 បង្គត់ទៅ .....

ច . 25 បង្គត់ទៅ .....

ឆ . 28 បង្គត់ទៅ .....

LIVEWORKSHEETS

V. ចូរកូនសរសេរចំនួន និងពាក្យអានចំនួនតាមរូបខាងក្រោម៖

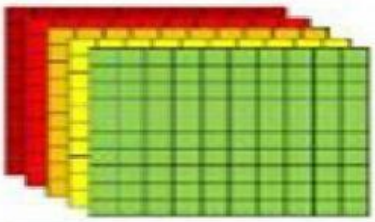	៥០០	ប្រាំរយ
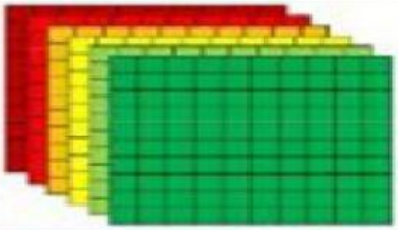	៦០០	.....
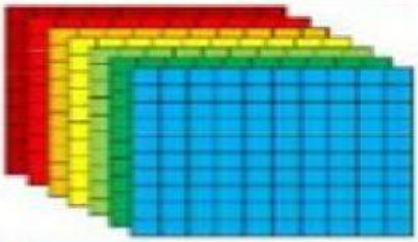	.....	ប្រាំពីររយ
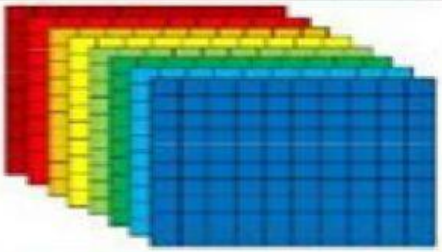	.....	.....
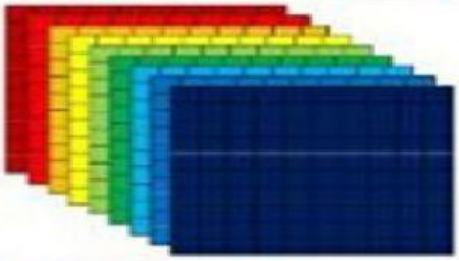	៩០០	.....
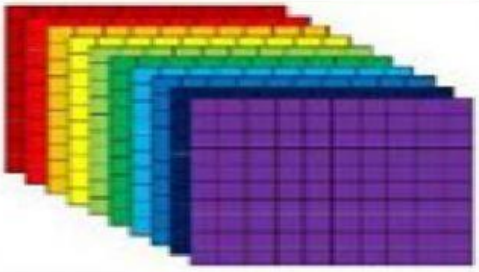	.....	.....

LIVEWORKSHEETS