NAMA :

A. Tonton video berikut !

B. Pilihlah jawaban yang tepat !

a. **Berilah tanda centang pada garis sejajar !**

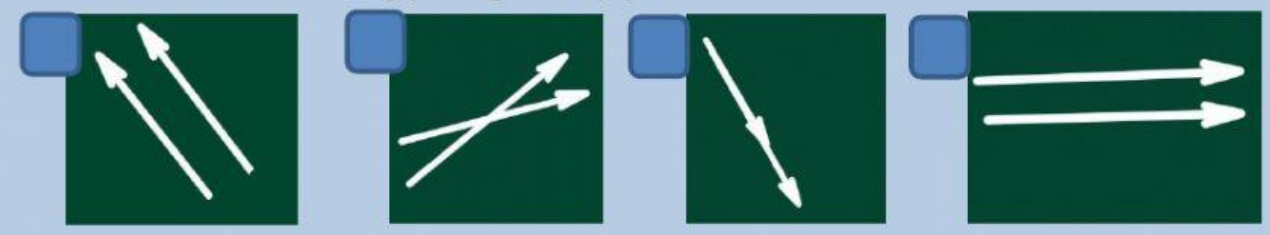

b. **Berilah tanda centang pada garis berpotongan !**

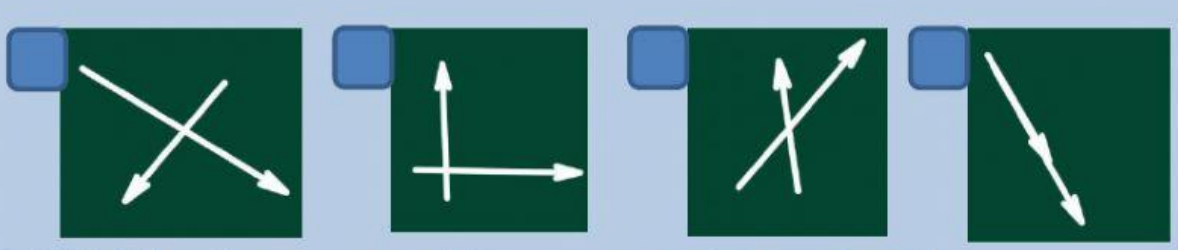

C. Pilihlah jawaban yang sesuai dengan nama sudut yang tepat !

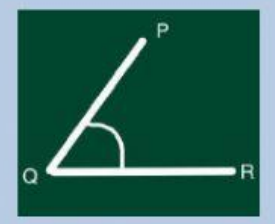

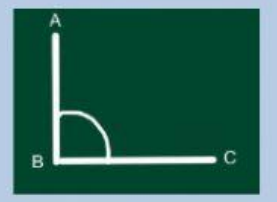

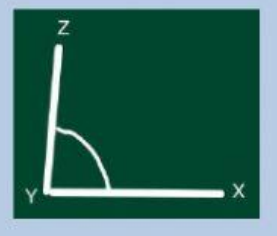

LIVEWORKSHEETS

D. Tariklah garis lurus yang sesuai dengan jenis sudutnya !

Sudut yang besarnya antara 0° dan 90°	Sudut Siku-Siku
Sudut yang besarnya sama dengan 90°	Sudut Lurus
Sudut yang besarnya antara 90° dan 180°	Sudut Lancip
Sudut yang besarnya sama dengan 180°	Sudut Tumpul

E. Pilihlah satu jawaban yang paling tepat !

1. Kumpulan titik-titik yang beraturan dan berkesinambungan disebut . . .
   a. Garis
   b. Garis sejajar
   c. Garis berimpit
   d. Sudut
2. Jenis sudut yang besar sudutnya sama dengan 90° adalah sudut . . .
   a. Lurus
   b. Lancip
   c. Tumpul
   d. Siku-siku
3. Hubungan garis yang terjadi pada gambar berikut adalah . . .

   a. Berpotongan
   b. Berimpit
   c. Sejajar
   d. Tegak lurus

LIVEWORKSHEETS

NAMA :

4. Jenis sudut pada gambar dibawah ini adalah . . .

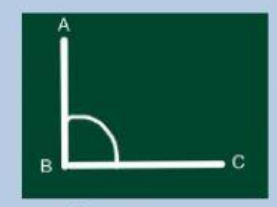

a. Lurus
b. Lancip
c. Siku-siku
d. Tumpul

LIVEWORKSHEETS