Plano cartesiano

Assista ao vídeo e responda as questões marcando a resposta com um (X)

1. Observe o parque de diversões representado abaixo: **Assinale a alternativa que mostra a localização do carrossel.**

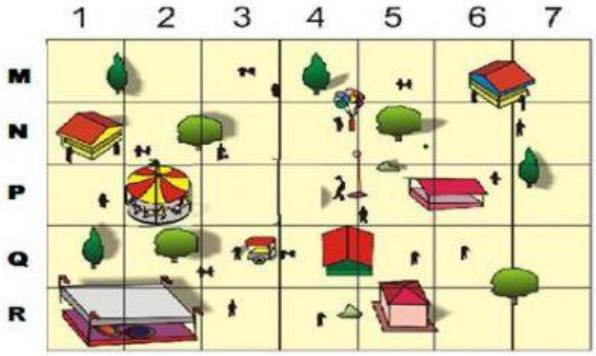

(A) N3.

(B) P3.

(C) N2.

(D) P2

2. (SAERJ). Veja abaixo o tabuleiro de um jogo.



O símbolo que está entre ☼ e ⚙ é

A) ♥

B) ♫

C) ♣

D) ▼

LIVEWORKSHEETS

3. (Saresp 2007). Observe a figura abaixo. **Em qual posição está a roda da frente do carro?**

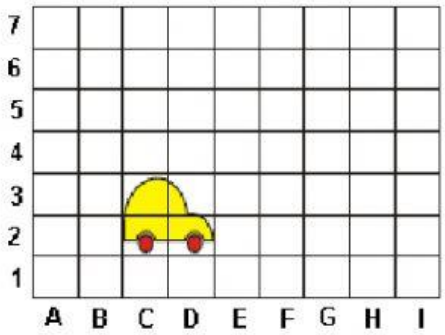

(A) C1
(B) D3
(C) C3
(D) D2

4. (Saresp 2007). O barco na figura ao lado está localizado na posição **X.**

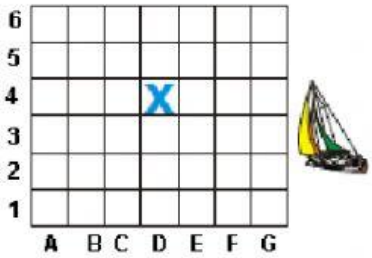

Que posição é esta?

(A) D4
(B) D5
(C) E4
(D) E5

5. Na imagem a seguir a localização de cada figura é identificada por um número e uma letra.

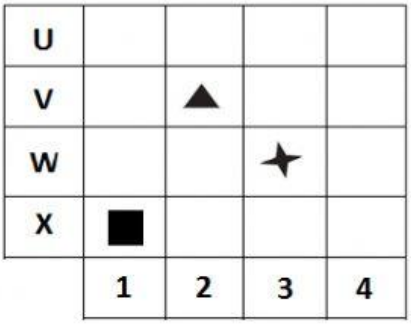

De acordo com a imagem, o triângulo está localizado em

A) 1, X
B) 2, V
C) 3, W
D) 3, X

LIVEWORKSHEETS