RECTAS, SEGMENTOS Y SEMIRRECTAS



1. ¿Cuántos extremos tiene cada línea?

a) segmento _____ b) semirrecta _____ c) línea recta _____

2. Identifica las siguientes figuras como recta, segmento o semirrecta.

a) _____

b) _____

c) _____

d) _____

e) _____

f) _____

3. Observa y elige la opción correcta

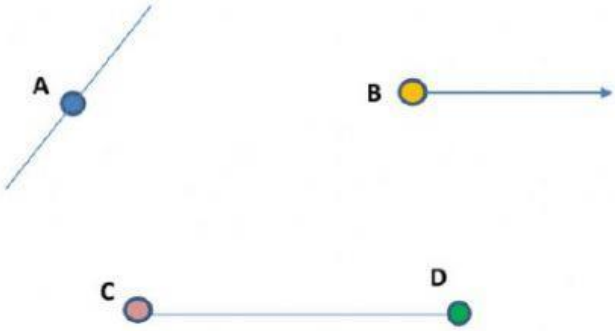

- Rectas
- Dos semirrectas
- 1 semirrecta
- 1 segmento

LIVEWORKSHEETS

El punto donde las líneas rectas, las semirrectas o los segmentos se cruzan se denomina **punto de intersección**.

punto de intersección

4. Señala los puntos de intersección como en el ejemplo a)

a)

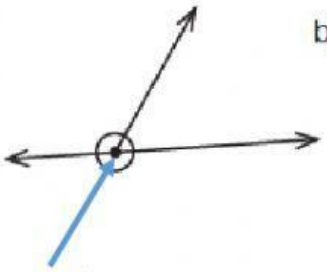

Punto de intersección

b)

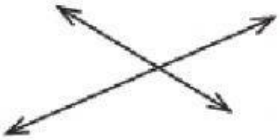

Punto de intersección

c)

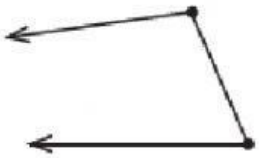

Punto de intersección

LIVEWORKSHEETS