EVALUACIÓN TERCER TRIMESTRE

CIENCIAS NATURALES

OBSERVA LAS IMÁGENES Y ARRASTRA EL RECUADRO DE ABAJO AL RECTÁNGULO EN BLANCO, AL QUE PERTENECE CADA IMAGEN.



translúcido | trayectoria | opaco | Transparente

UNE CON LÍNEAS EL CONCEPTO CON SU DESCRIPCIÓN.

TONO	Se refiere al volumen puede ser alto o bajo.
TIMBRE	Depende de las características físicas de quien lo emite.
INTENSIDAD	Puede ser agudo o grave.
DECIBEL	Exposición a ruidos superiores a 85 o 90 decibeles.
CONTAMINACIÓN ACÚSTICA	Unidad utilizada para medirla intensidad del

CON LOS RECUADROS COMPLETA EL TEXTO SOBRE LOS IMANES.

Los _____ son objetos con la propiedad de atraer metales, a esta propiedad se le conoce como _____, existen dos tipos de imanes los artificiales y _____. La mayor capacidad de atracción de los imanes se concentra en los _____. Cuando se acercan los imanes por el mismo polo se _____ y cuando se acercan los imanes por polos diferentes se _____, a los polos de los imanes se les identifica como polo _____ y polo norte.

sur | imanes | naturales | atraen | magnetismo | rechazan | polos

LIVEWORKSHEETS

UNE LOS DIBUJOS CON EL CONCEPTO QUE REPRESENTAN Y LA INFORMACIÓN.

TRASLACIÓN DE LA TIERRA

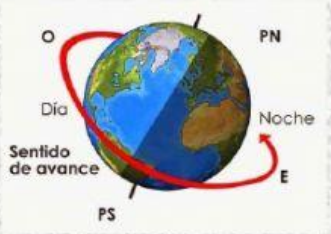

Dura 365 días, gira alrededor del Sol y ocasiona las estaciones del año.

FASES DE LA LUNA

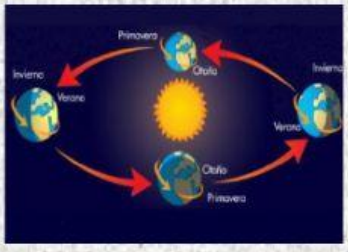

Gira alrededor de su propio eje, dura 24 horas ocasiona el día y la noche.

ROTACIÓN DE LA TIERRA

Dependen de la cantidad de luz del Sol que refleja hacia la Tierra.

ELIGE LAS IMÁGENES QUE SON ELEMENTOS NATURALES DE NUESTRO SISTEMA SOLAR.

LIVEWORKSHEETS