UNITATE BUKAERAKO TESTA (151-152. orriak)

1.-Kalkulatu irudi hauen azalerak eta esan beraien izenak.

- Zein da irudi honen izena?

Karratua	Laukizuzena	Triangelua
Erronboidea	Trapezioa	Erronboa

- Zein formula aukeratuko dut, irudi honen azalera kalkulatzeko?

Aldea x aldea	Oinarria x altuera	$\frac{\text{Oinarria x altuera}}{2}$
$\frac{\text{Perimetroa x apotema}}{2}$	$\frac{(B + b) \times h}{2}$	$\frac{D \times d}{2}$

- Zenbat neurtzen du oinak? [ ]
- Zenbat neurtzen du altuerak? [ ]
- Emaitza = [ ] cm^2

LIVEWORKSHEETS

- Zein da irudi honen izena?

Karratua	Laukizuzena	Triangelua
Erronboidea	Trapezioa	Erronboa

- Zein formula aukeratuko dut, irudi honen azalera kalkulatzeko?

Aldea x aldea	Oinarria x altuera	$\frac{\text{Oinarria x altuera}}{2}$
$\frac{\text{Perimetroa x apotema}}{2}$	$\frac{(B + b) \times h}{2}$	$\frac{D \times d}{2}$

- Zenbat neurtzen du oinak? ☐
- Zenbat neurtzen du altuerak? ☐
- Emaitza = ☐ cm^2

LIVEWORKSHEETS

- Zein da irudi honen izena?

Karratua	Laukizuzena	Triangelua
Erronboidea	Trapezioa	Erronboa

- Zein formula aukeratuko dut, irudi honen azalera kalkulatzeko?

Aldea x aldea	Oinarria x altuera	$\frac{\text{Oinarria x altuera}}{2}$
$\frac{\text{Perimetroa x apotema}}{2}$	$\frac{(B + b) \times h}{2}$	$\frac{D \times d}{2}$

- Zenbat neurtzen du oinak? [ ]
- Zenbat neurtzen du altuerak? [ ]
- Emaitza = [ ] cm^2

LIVEWORKSHEETS

- Zein da irudi honen izena?

Karratua	Laukizuzena	Triangelua
Erronboidea	Trapezioa	Erronboa

- Zein formula aukeratuko dut, irudi honen azalera kalkulatzeko?

Aldea x aldea	Oinarria x altuera	$\frac{\text{Oinarria x altuera}}{2}$
$\frac{\text{Perimetroa x apotema}}{2}$	$\frac{(B + b) \times h}{2}$	$\frac{D \times d}{2}$

- Zenbat neurtzen du diagonal handiak? ☐
- Zenbat neurtzen du diagonal txikiak? ☐
- Emaitza = ☐ cm^2

LIVEWORKSHEETS



- Zein da irudi honen izena?

Karratua	Laukizuzena	Triangelua
Erronboidea	Trapezioa	Erronboa

- Zein formula aukeratuko dut, irudi honen azalera kalkulatzeko?

Aldea x aldea	Oinarria x altuera	$\frac{\text{Oinarria x altuera}}{2}$
$\frac{\text{Perimetroa x apotema}}{2}$	$\frac{(B + b) \times h}{2}$	$\frac{D \times d}{2}$

- Zenbat neurtzen du oinak? ☐
- Zenbat neurtzen du altuerak? ☐
- Emaitza = ☐ cm^2

LIVEWORKSHEETS

3.-Pentsatu ondo eta asmatuko duzu.

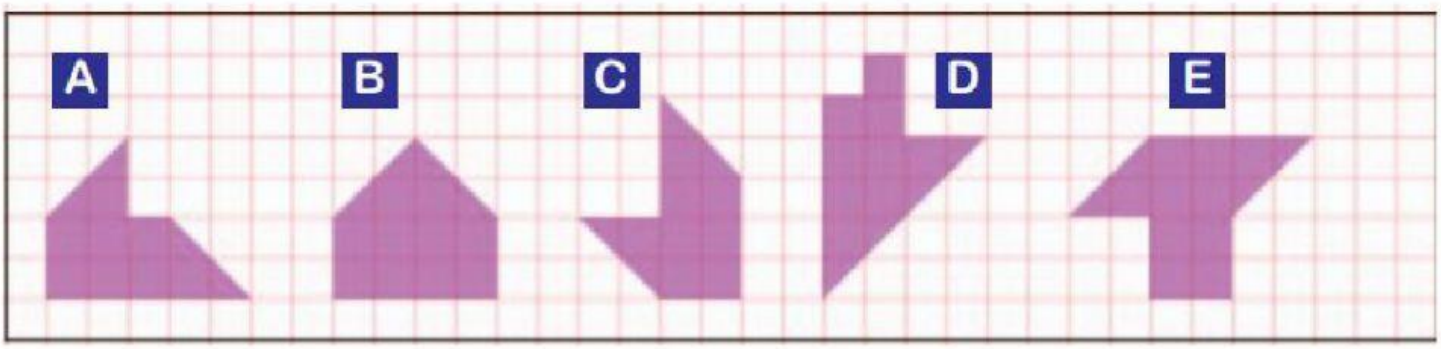

- Zein irudik du A-ren perimetro bera?

B	C	D	E	F

- Zein irudik du B-ren azalera bera?

A	C	D	E	F

- Zein irudik dute azalera eta perimetro bera? Aukeratu bi irudi, beraz bi letra.

A	B	C	D	E	F

- Aukeratu dituzun bi irudi hauek berdinak al dira?

BAI	EZ

LIVEWORKSHEETS

4.-Osatu, neurri unitateaz aldatzean, baliokidetzak kontuan hartuz.

250 mm^2 = _____ dm^2

25	2,5	2.500
0,025	25.000	250.000

82,5 cm^2 = _____ mm^2

825	8.250	8,25
0,825	82.500	0,0825

1,4 m^2 = _____ cm^2

14	0,14	0,014
140	14.000	1.400

LIVEWORKSHEETS

0,5 km^2 = _____ m^2

5.000	5	50
50.000	500	500.000

1 km^2 = _____ hektarea

1.000.000	0,1	100
0,01	10.000	100.000

5,5 hektarea = _____ m^2

55	55.000	0,55
550	5.500	0,055

LIVEWORKSHEETS

6.-Kalkulatu berdez margotuta dagoen zatiaren perimetroa eta azalera.

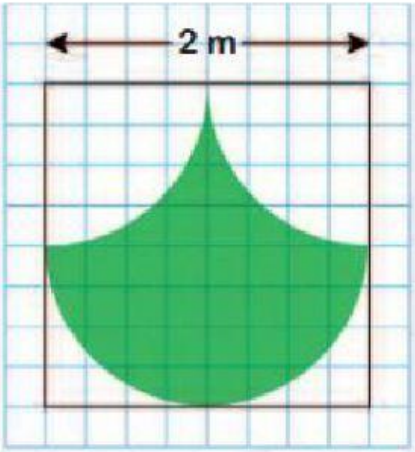

- Zein formula aukeratuko dut, perimetroa kalkulatzeko?

Aldea x aldea	Oinarria x altuera	πr^2
$2\pi r$	$\pi r^2 h$	$\frac{\text{oina x altuera}}{2}$

- Zein da irudi honen radioa? [ ] m

- Aukeratutako formula eta datuen arabera zein da emaitza?

EMAITZA, PERIMETROA = [ ] m

LIVEWORKSHEETS