1. Un arquitecto desea obtener el área de un terreno, sobre el cual construirán una plaza comercial. Ayúdalo a encontrar el área exacta.

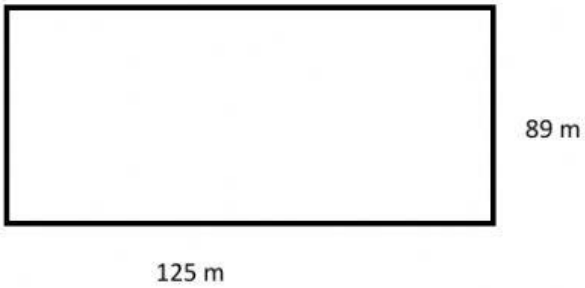

2. Juan construirá pequeñas zonas de jardín con flores, las zonas tienen forma triangular. Pero necesita el área de una zona para comprar el pasto. Encuentra el área de una zona.

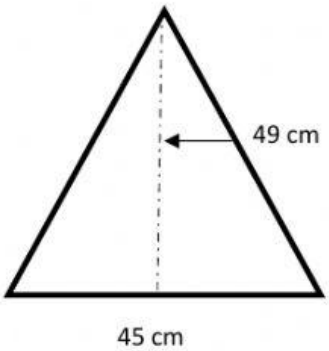

3. Adriana compró un retazo de tela para crear fundas de almohadas, para ello tiene que obtener el área total de la tela y así hacer cálculos de medidas. Encuentra el área de la tela.

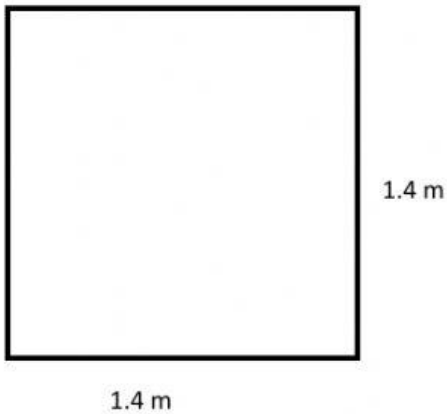

LIVEWORKSHEETS

4. En el rancho de José, se construirá una alberca, su padre le pidió que obtuviera el área total de la zona designada para construir la alberca; las medidas son las siguientes:

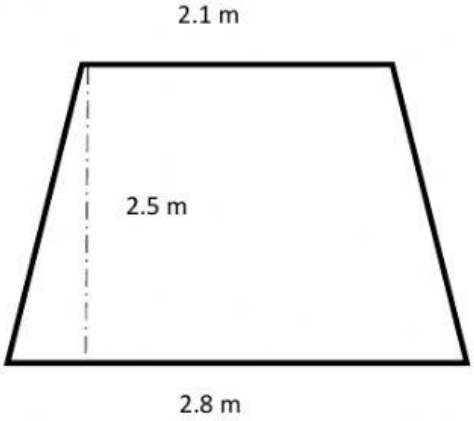

5. En un enjambre de abejas, una celda de forma hexagonal tiene las siguientes medidas. Obtener el área de una celda.

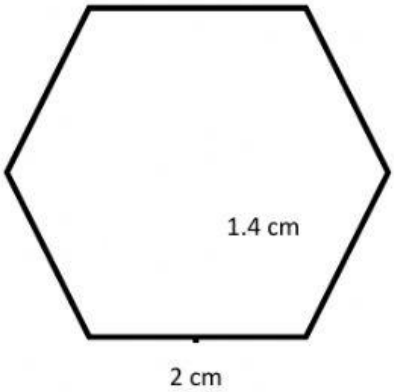

LIVEWORKSHEETS