LUCCAS NETO

EM

OPERAÇÕES COM NÚMEROS INTEIROS

Adriana Santos

MATEMÁTICA

LIVEWORKSHEETS


LUCCAS NETO
01 - Complete com > ou <.
A) 1025 ___ 1228
B) - 12 ___ - 8
C) 127 ___ - 523
D) - 341 ___ 25
E) 0 ___ - 6
F) – 56 ___ - 98
IMAGEM
LIVEWORKSHEETS

LUCCAS NETO
02 - Escreva os números em ordem crescente:
421
9
- 728
3845
- 123
0
- 1622
77
- 2523
- 3
LIVEWORKSHEETS

03 - Na reta numérica a seguir, foram usadas letras para indicar alguns pontos.



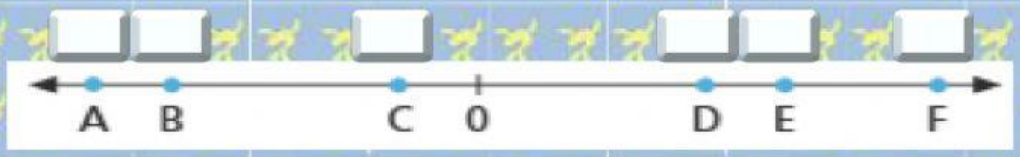

Relacione cada número do quadro ao lado do Felipe Neto a um ponto correspondente na reta numérica.

18 | - 15 | - 3

9 | - 12

12

LIVEWORKSHEETS

4) No edifício em que Felipe Neto mora, há andares no subsolo, onde ficam os estacionamentos. Observe o painel do elevador desse edifício abaixo.

a) Quantos andares tem esse edifício?

Observe que há 3 andares abaixo do térreo + térreo + 12 andares acima do térreo

No prédio há andares.

b) Entre os andares -2 e 7, há quantos andares?

andares

LIVEWORKSHEETS

05 - Davi começou uma nova rodada no jogo de celular "inteiros fire". Ele iniciou a rodada com pontuação -15. Observe o balão que ele estourou em um lançamento e calcule a pontuação após esse lançamento.

+ 12

- 15 + 12 =

_____ pontos

06 – Você lembra o que é saldo de gols? Esse saldo é a diferença entre a quantidade de gols marcados e de gols sofridos pelo time em um campeonato.

Veja a quantidade de gols marcados e de gols sofridos por algumas seleções nas eliminatórias, da América do Sul, para a Copa do Mundo de futebol masculino 2018.

	Gols marcados	Gols sofridos
Brasil	41	11
Bolívia	16	38
Uruguai	32	20
Venezuela	19	35

a) Qual dessas seleções marcou menos gols nessa eliminatória? E qual marcou mais gols?

_____ marcou menos gols

_____ marcou mais gols

b) Calcule o saldo de gols de cada uma dessas seleções.

Brasil	Uruguai	Bolívia	Venezuela
_____ gols	_____ gols	_____ gols	_____ gols

LIVEWORKSHEETS

07 – Calcule:

A) (+ 9) . (- 3) =

B) (- 15) . (- 5) =

C) (- 12) . (+ 4) =

D) (+ 8) . (+ 25) =

E) (- 72) . (- 8) =

F) (- 105) . (+ 7) =

G) (+ 240) . (+ 20) =

H) (+ 96) . (- 6) =

LIVEWORKSHEETS

8) Felipe Neto não controlou bem suas despesas e o saldo bancário de sua conta ao final de janeiro ficou em −R$ 848,00, ou seja, saldo negativo. Após planejar melhor seus gastos, conseguiu que o saldo da conta, ao final de fevereiro, correspondesse à metade daquele do mês anterior. Qual foi o saldo da conta bancária de Felipe Neto ao final de fevereiro?

- 848 : 2 =

9) Quando Felipe Neto viajou para os Estados Unidos, um termômetro estava marcando - 8 °C. No dia seguinte a temperatura aumentou 2 °C, quantos graus marcava o termômetro?

- 8° + 2° =

LIVEWORKSHEETS

LIVEWORKSHEETS