Los seres vivos cambian

Nombre:

Grado: **Fecha:**

1 Enumera del 1 al 4 los cambios que ocurren en el ciclo de vida del siguiente ser vivo.



2 Numera la secuencia y responde las preguntas.

* ¿Quién logro una mayor altura?

* Escribe tres cambios que haya tenido cada ser vivo.

LIVEWORKSHEETS

3 Relaciona cada etapa con el número de la imagen correspondiente.

- ( ) La planta sigue creciendo y del tallo nacen más hojas.
- ( ) De la semilla surgen la raíz y unas pequeñas hojas.
- ( ) La semilla que esta en el suelo húmedo y comienza a germinar.
- ( ) Luego aparece el tallo que crece hacia arriba.

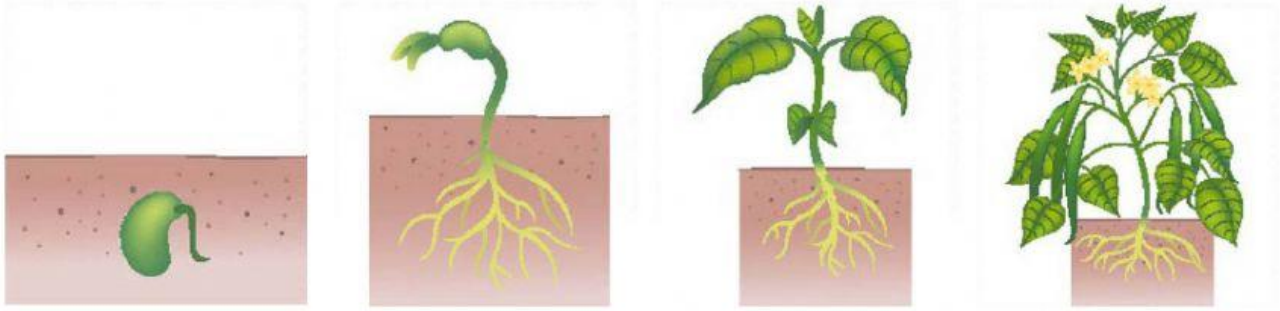

1 2 3 4

4 Ordena el ciclo de vida de un pez. Para ello, numera de 1 a 4, según corresponda.

- ( ) * El pez adulto pone cientos de huevos en la arena del fondo del río.
- ( ) * Al mes, los huevos se abren y nacen los alevinos.
- ( ) * A los dos meses el alevino tienen la forma de un pez joven, con las aletas y la cola bien desarrolladas.
- ( ) * Después de un tiempo, el pez es adulto y puede reproducirse.

5 Dibuja flechas en la dirección correcta para completar el ciclo de vida de la rana.



Huevos | Ranita | Renacuajo | Rana adulta

LIVEWORKSHEETS