MATEMÁTICAS



GUIA DE ESTUDIO

NOMBRE DEL ALUMNO(A):
FECHA:

Observa la siguiente imagen y responde las preguntas 1 al 3.

1. ¿Cuánto cuesta el jugo de 1/4 de litro?

a) $ 8. b) $ 18. c) $ 11. d) $ 15.

2. ¿Cuánto cuesta el jugo de 3/10 de litro?

a) $ 8. b) $ 18. c) $ 11. d) $ 15.

3. ¿Cuánto cuesta el jugo de 1/2 de litro?

a) $ 8. b) $ 18. c) $ 11. d) $ 15.

4. Para pintar el salón de clases, los alumnos de 6º "B" mezclaron en una cubeta las siguientes cantidades de pintura:

¿Qué fracción de la mezcla es pintura amarilla?

a) Es 6/10. b) Es 16/40. c) Es 26/40. d) Es 4/6

LIVEWORKSHEETS
LIVEWORKSHEETS

5. La regularidad de esta sucesión consiste en obtener el término siguiente multiplicando por 3 al anterior. ¿Cuál es el término que falta?

1.2, 3.6,_____, 32.4, 97.2

a) 9.18. b) 10.8. c) 9. d) 9.8.

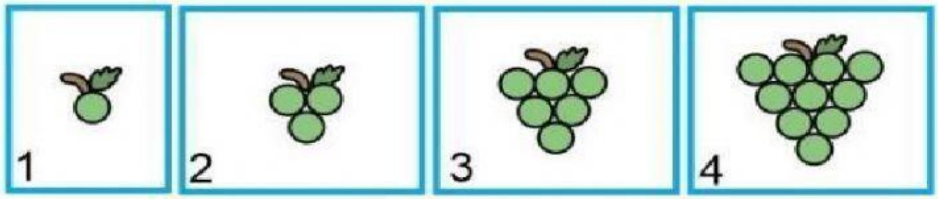

9.- ¿Cuál es la regularidad que representa la cantidad de uvas de cada figura?

a) La cantidad de uvas de cada figura aumenta de 2 en 2.

b) Cada figura se obtiene sumando a la anterior el número de uvas de su posición.

c) Sumando 3 uvas a la figura anterior.

d) Aumenta 4 uvas por cada figura.

10. ¿Con cuál de los siguientes desarrollos planos se puede armar el siguiente cuerpo geométrico?

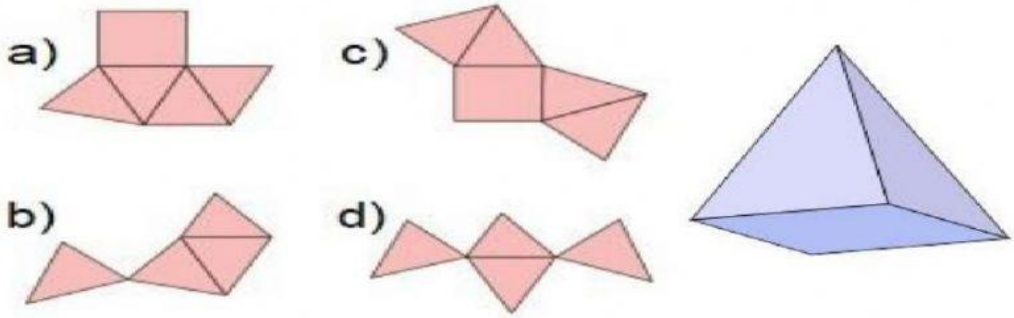

11. ¿Cuál es la circunferencia del siguiente balón?

a) 3.14 cm.

b) 94.2 cm.

c) 60 cm.

d) 15 cm.

Anota el nombre con letra de las siguientes cifras.

3,928,679: _____

_____

1,039,216: _____

_____

25,900.65: _____

_____

LIVEWORKSHEETS LIVEWORKSHEETS

12. ¿Cuántos cubos tiene el siguiente prisma?

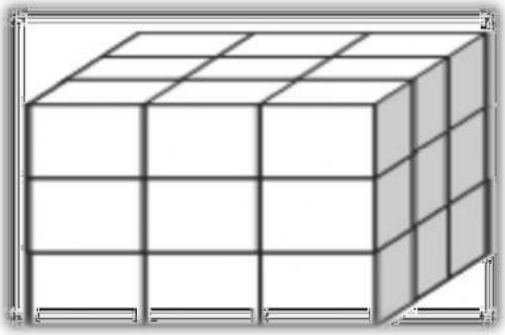

a) 27.

b) 24.

c) 23.

d) 19.

13. Las aristas de cada cubo del siguiente prisma triangular miden 1 cm, ¿cuál es su volumen?

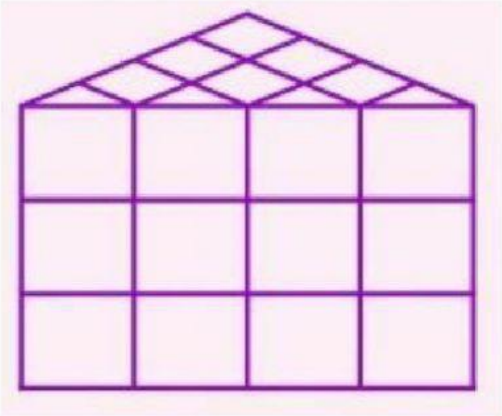

a) 27.

b) 24.

c) 23.

d) 19.

14-15. Hallar las medidas de tendencia central a cada situación y completa la tabla de frecuencia.

Las edades de 9 estudiantes son**: 6, 7, 9, 7, 9, 9, 9, 9, 7**

Datos de edad	Cantidad frecuencia
6	
7	
9	

Moda=

Media=

Mediana=

a) 9, 8, 9. b) 7, 9, 8. c) 9, 9, 9. d) 7, 8, 9.

Ordena los siguientes números decimales de mayor a menor.

7.010 * 7.10 * 7.9 * 7.0478 *

LIVEWORKSHEETS
LIVEWORKSHEETS

Relaciona cada cantidad con el porcentaje que le corresponde.

El 15% de 1,500	2,600
El 10% de 2,800	280
El 52% de 5,000	3,825
El 45% de 8,500	225

Convierte a decimales las siguientes fracciones.

$\frac{4}{5} =$ _____

$\frac{6}{12} =$ _____

$\frac{9}{11} =$ _____

Escribe el nombre de los siguientes cuerpos geométricos.

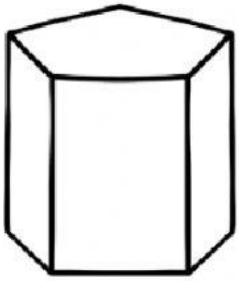

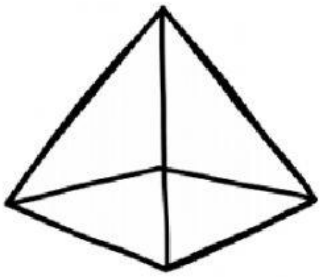

_____ _____ _____

_____ _____ _____

LIVEWORKSHEETS
LIVEWORKSHEETS