T2

Suma y resta



LIVEWORKSHEETS

☺ 😐 ☹ Repaso suma y resta con dos dígitos **Tema 2- 1**

Sumo.

a) 30 + 20 =

b) 23 + 14

c) 33 + 5

Resto.

d) 60 - 40 =

e) 58 - 35

f) 79 - 9

Sumo.

a) 24 + 60

b) 70 + 18

Resto.

c) 48 - 30

d) 45 - 25

Sumo.

a) 50 + 40 =

Resto.

b) 70 - 10

c) 90 - 30

Sumo.

a) 43 + 50

Forma vertical

b) 63 + 5

Forma vertical

c) 80 + 9

Forma vertical

Resto.

d) 85 - 83

Forma vertical

e) 36 - 5

Forma vertical

f) 74 - 4

Forma vertical

LIVEWORKSHEETS

Tema 2- 2 Resuelvo problemas de suma y resta ☹ 😐 ☺

Leo y resuelvo.

A mi casa vinieron **13** amigos.

Después vinieron otros **15**.

¿Cuántos amigos vinieron en total?

Planteamiento _____

Respuesta [ ] amigos

Forma vertical

Leo y resuelvo.

a) En un cuarto hay **33** sillas. Don Tomás trajo **20** sillas más.
¿Cuántas sillas hay en total?

Planteamiento _____

Respuesta _____

Forma vertical

b) Hay **47** patos en una laguna. **6** se salen.
¿Cuántos patos quedan en la laguna?

Planteamiento _____

Respuesta _____

Forma vertical

Leo y resuelvo.

a) Mario tiene **40** mazorcas para desgranar.
En la tarde desgrana **30.**
¿Cuántas mazorcas le falta desgranar?

Planteamiento _____

Respuesta _____

Forma vertical

b) En una bolsa hay **42** dulces.
Una niña echa **7** dulces más.
¿Cuántos dulces hay en total?

Planteamiento _____

Respuesta _____

Forma vertical

LIVEWORKSHEETS

Ejemplo:

4 cerdos están comiendo. **3** cerdos vienen a comer.
¿Cuántos cerdos estarán comiendo en total?

Planteamiento _____

Respuesta _____

LIVEWORKSHEETS

Tema 2- 3 Invento problemas de suma o resta ☹ 😐 ☺

a) Invento un problema de suma donde hable de mariposas.

Planteamiento Respuesta

b) Invento un problema de resta donde hable de pajaritos.

Planteamiento Respuesta

c) Invento un problema de suma o resta donde hable de manzanas.

Planteamiento Respuesta

Vamos a inventar otros problemas en el cuaderno. Después los resolvemos.

LIVEWORKSHEETS

☺ 😐 ☹ Agrupo números y sumo | Tema 2- 4

Leo y resuelvo.

En un corral hay **4** conejos grises y **5** conejos blancos.

Al corral llegan **5** conejos blancos más. ¿Cuántos conejos hay en total?

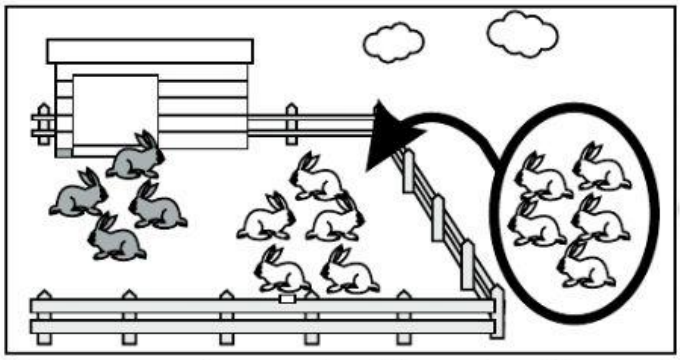

Planteamiento

_____

Respuesta

_____

Observo cómo calculó cada niño o niña.

Primero sumé 4 con 5 y me dio 9. Después sumé el 9 y 5.

Primero sumé 5 con 5 y me dio 10. Después sumé el 10 y 4.

$(4 + 5) + 5 =$ ☐ $4 + (5 + 5) =$ ☐

Leo y recuerdo:

El orden como sumemos no cambia el resultado.

Realizo las sumas.

a) $4 + 3 + 7 =$

b) $5 + 5 + 8$

c) $6 + 4 + 1$

d) $9 + 2 + 8$

e) $5 + 9 + 1$

f) $3 + 2 + 8$

g) $5 + 4 + 6$

h) $7 + 9 + 1$

LIVEWORKSHEETS

Tema 2 | Contesto ☹ 😐 ☺

1 Realizo las sumas.

a) 14 + 34

b) 27 + 52

c) 31 + 66

d) 29 + 70

e) 85 + 4

f) 7 + 91

Realizo las restas.

g) 28 - 13

h) 79 - 76

i) 99 - 48

j) 85 - 33

k) 65 - 12

l) 38 - 28

2 Observo el dibujo. Invento un problema y lo resuelvo.



Planteamiento _____

Respuesta _____

3 Realizo las sumas.

a) 5+2+8=

b) 6+4+5

c) 6+3+7

d) 8+5+5

e) 8+2+9

f) 7+3+4

LIVEWORKSHEETS

¡Trato de resolver problemas nuevos de suma y resta!

En la sección A de segundo grado hay 15 niñas.
Hay 3 niños más que las niñas.
¿Cuántos niños hay en la sección A?

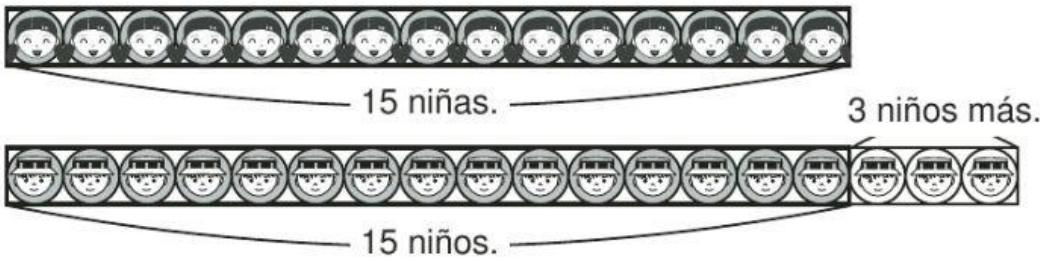

Planteamiento

_____

Respuesta

_____

En la sección B de segundo grado hay 15 niñas.
Hay 3 niños menos que las niñas.
¿Cuántos niños hay en la sección B?

Planteamiento

_____

Respuesta

_____

LIVEWORKSHEETS